جامعة الإسكندرية
كلية الزراعة
قسم الاقتصاد وإدارة الأعمال الزراعية
الفرقة: رابعة

إسم وكود المقرر: ٠٣٤٠٣
الاحصاء الاقتصادي
مدة الامتحان: ساعتان
تاريخ وميعاد الامتحان: ٢٠١٦/١/١٨ من ١٠-١٢
الدرجة الكلية للامتحان: ١٨٠ درجة

العام الجامعي ٢٠١٦/٢٠١٥ الفصل الدراسي الاول

لجنة الممتحنين: ١- أ.د. اوليفيا صالح ٢- أ.د. أحمد أبو اليزيد ٣- د. ياسمين صلاح

تعليمات الإجابة:

أجب على جميع الأسئلة التالية:

السؤال الأول: (٢٥ درجة)

١- العلاقة بين الوسط الحسابي والوسيط والمنوال في التواء موجب . بالرسم
٢- اشكال الانتشار التي تبين وجود ارتباط خطي وارتباط غير خطي. بالرسم
٣- معامل الارتباط بالرسم
٤- المنحنى الاسي بالرسم
٥- اثبت أن

$$\frac{\text{مجـ}(\text{س} - \bar{\text{س}})^2\text{ك}}{\text{مجـ ك}} = \frac{\text{مجـ س}^2\text{ك}}{\text{مجـ ك}} - \left(\frac{\text{مجـ س ك}}{\text{مجـ ك}}\right)^2$$

السؤال الثاني: (٨٠ درجة)

الجدول التالي يبين العلاقة بين الكمية المعروضة بالكيلو جرام والسعر بالجنيه

السعر	١	٢	٣	٤	٥	٦	٧	٨
الكمية المعروضة	٥	١٣	١٦	٢٣	٣٣	٣٨	٤٠	٤٣

المطلوب ايجاد : (١) معامل الارتباط بين الكمية المعروضة والسعر.
(٢) خط انحدار الكمية على السعر.
(٣) الكمية المعروضة عند سعر ١٥ جنيهاً.

السؤال الثالث: (٢٥ درجة)

في أحد الالومبياد الدولية قطعت المسافات التالية في الساعة

فئة المسافة	٥-	١٠-	١٥-	٢٥-	٣٠-	٤٠- أقل من ٤٥
عدد المتسابقين	٦	١٠	١٥	١٨	١٣	٨

أوجد متوسط السرعة المسجلة.

السؤال الرابع: (٥٠ درجة)

احسب دلالة الفروق بين مجموعتين من الذاكور والاناث في إجابة كل منهما على الموافقة على تنظيم الأسرة من الجدول التالي: وذلك عند مستوى معنوية ٠.٠١

الرأي / النوع	موافق	محايد	أرفض	المجموع
ذكور	٤٤	١٢	٦٤	١٢٠
اناث	٥٨	٤٠	٢٢	١٢٠
المجموع	١٠٢	٥٢	٨٦	٢٤٠

(نهاية أسئلة الامتحان)

مع أطيب التمنيات بالنجاح والتوفيق

جامعة الإسكندرية.
كلية الزراعة.
قسم الاقتصاد وإدارة الأعمال الزراعية.
المستوى الرابع.

اسم وكود المقرر: إدارة الأعمال الزراعية. (٠٣٤٠٥)
مدة الامتحان: ساعتان.
تاريخ وميعاد الامتحان: ٢٠١٦/١/٢٣ (١٠ــ ١٢)
الدرجة الكلية للامتحان : ١٨٠ درجة.

العام الجامعي ٢٠١٥/٢٠١٦ الفصل الدراسي الأول

لجنة الممتحنين : ١ــ أ.د. نشوى التطاوى. ٢ ــ أ.د. محمد الماحى. ٣ــ د. سامح شهاب.

تعليمات الإجابة : ١ــ أجب على الأسئلة الآتية ، مع مراعاة الإلتزام بالمحدد لكل سؤال. ٢ ــ عدد الصفحات: (١).

السؤال الأول : صمم الميزانية الإنتاجية المستخدمة في إنتاج ثلاث نواتج في ظل القيود والإحتياجات الإنتاجية التالية: (٦٠ درجة)

النواتج / القيود	٩ فدان	٩٠٠٠ جنيه	٥٠ وحدة	٣٩ وحدة	٣٠ وحدة
	الإحتياجات الإنتاجية				
الأول	١	٩٠٠	٥	٣	٦
الثاني	١	٥٠٠	٢	٧	صفر
الثالث	١	٢٥٠	٥	صفر	صفر

علماً بأن صافي الربح المتوقع من الفدان: ١٨٠٠ ، ٥٠٠ ، ٢٠٠ جنيه للنواتج الثلاثة على الترتيب.

السؤال الثاني ــ تناول بإختصار: (٦٠ درجة)

أ ــ تطور الملكية في مصر ، ثم فرق بين الملكية والحيازة ، ثم وضح الملكية في النظم الاقتصادية.

ب ــ أغراض ومراحل وطرق تقدير ثمن الأراضي.

ت ــ تعريف: السند والمورد والتضخم والكفاءة.

السؤال الثالث: (٦٠ درجة)

١ ــ عرف ما يلي: (٣٠ درجة بمعدل ٥ درجات لكل نقطة)

الإدارة الإستراتيجية[١] ــ إدارة الأعمال الزراعية[٢] ــ الاقتصاد الإدارى[٣] ــ المزرعة[٤] ــ نموذج آدمز[٥] ــ مدير المزرعة[٦]

٢ ــ وضح الفرق بين: (١٥ درجة بمعدل ٥ درجات لكل نقطة)

أ ــ وحدة العمل الإنساني ، وحدة العمل الحيواني. ب ــ رأس المال المزرعي الثابت ، رأس المال المزرعي المتداول.

ت ــ الرقابة ، المتابعة.

٣ ــ اذكر فقط ما يلي : (١٥ درجة بمعدل ٥ درجات لكل نقطة)

أ ــ عناصر الإدارة والإدارة الإستراتيجية. ب ــ الأدوات والأساليب التحليلية المساعدة في عملية الرقابة.

ت ــ مواصفات الأهداف الجيدة.

(نهاية أسئلة الامتحان)

مع أطيب التمنيات بالنجاح والتوفيق

جامعة الإسكندرية
كلية الزراعة
قسم الاقتصاد وإدارة الأعمال الزراعية
الفرقة: رابعة

إسم وكود المقرر: ٠٣٤٠٣
الإحصاء الاقتصادي
مدة الامتحان: ساعتان
تاريخ وميعاد الامتحان: ٢٠١٥/١/٢١ من ٩-١١
الدرجة الكلية للامتحان: ٢١٠ درجة

العام الجامعي ٢٠١٤/٢٠١٥ الفصل الدراسي الاول

لجنة الممتحنين: ١- أ.د. اوليفيا صالح ٢- أ.د. رفعت لقوشة ٣- أ.د. أحمد أبو اليزيد

تعليمات الإجابة:

أجب على جميع الأسئلة التالية:

السؤال الأول: (١٢٨ درجة)

(٢٣)

(أ) بين بالرسم
(معامل الارتباط ، العلاقة بين الوسط الحسابي والوسيط والمنوال في منحنى ملتو أ) التواء موجب
أشكال المنحنيات التكرارية ب) التواء سالب

(ب) اثبت أن - $\frac{\text{مجـ (س - س-)}^2 \text{ ك}}{\text{مجـ ك}} = \frac{\text{مجـ س}^2 \text{ ك}}{\text{مجـ ك}} - \left(\frac{\text{مجـ س ك}}{\text{مجـ ك}}\right)^2$

(ج) في دراسة العلاقة بين سعر الكتاب وعدد صفحاته تم جمع البيانات التالية لعينة من الكتب مبين ما إذا كان هناك ارتباط بين سعر الكتاب وعدد صفحاته باستخدام (أ) ارتباط بيرسون (ب) ارتباط سبيرمان

سعر الكتاب	١٢	١٠	٧	٨	٧	١٥	١٠
عدد الصفحات	٢٠	٣٠	٤٠	٤٠	٥٠	٦٠	٦٠

السؤال الثاني: (٨٢ درجة)

١- قارن بين كل من توزيع t, F, X^2 من حيث الخصائص ودرجات الحرية

٢- اذا كان لديك البيانات التالية:

$N = 18$ $\sum X = 162$ $\sum Y = 720$
$\sum XY = 9100$ $\sum X^2 = 1860$ $\sum Y^2 = 48000$

حيث X تمثل الاستهلاك ، Y تمثل الدخل المتاح. المطلوب:

أ) أوجد معادلة الانحدار $Reg_{y/x}$ مع تفسير النتائج المتحصل عليها.

ب) إذا علمت أن قيمة X تبلغ ٢٢ فكم تبلغ قيمة Y المتوقعة.

٣- اجريت تجربة على عينة عشوائية مكونة من ٧ أبقار للتعرف على أثر اختلاف طريقة الحلب على كمية إدرار اللبن الأسبوعي ، وكانت النتائج كما يلي:

أبقار العينة / طريقة الحلب	١	٢	٣	٤	٥	٦	٧
آلي	٢١	٢٠	١٩	٢٤	٢٢	٢٢	٢٤
يدوي	١٧	١٨	١٦	١٩	١٧	١٦	١٧

المطلوب: اختبر هل اختلاف طريقة الحلب يؤثر على متوسط كمية إدرار اللبن عند مستوى معنوية ٠.٠٥ علماً بأن قيمة t الجدولية = 2.19.

(نهاية أسئلة الامتحان)

مع أطيب التمنيات بالنجاح والتوفيق

جامعة الإسكندرية
كلية الزراعة
قسم الاقتصاد وإدارة الأعمال الزراعية
الفرقة: الرابعة

اسم وكود المقرر: ٠٣٤١٥ (مبادئ المحاسبة الزراعية)
مدة الإمتحان: ساعتان
تاريخ وميعاد الإمتحان: ٢٠١٥/١/١٠ من ٩-١١
الدرجة الكلية للإمتحان: ١٢٠ درجة

٥

العام الجامعي ٢٠١٤/٢٠١٥، الفصل الدراسي الأول

لجنة الممتحنين: ١- أ.د. السيد محمود الشرقاوي ٢- أ.د. عون خير الله عون ٣- د. محمد علي فتح الله

السؤال الأول: (٦٠ درجة)

أ- وضح المقصود بكل من: المحاسبة المالية، الخصوم وأنواعها، نظرية القيد المزدوج، رأس المال، العقارات والمنقولات.

ب- بدء أحد المشروعات الزراعية نشاطه الإنتاجي بالعمليات المالية التالية:

- في ٢٠١٤/١/١ أودع رأس ماله الذي يبلغ ٢٠٠٠٠٠ جنيه مناصفاً في كل من الصندوق والحساب الجاري بالبنك.
- في ٢٠١٤/١/١٠ إقامة مباني بمبلغ ٥٠٠٠٠ جنيه نقداً.
- في ٢٠١٤/١/٢٥ شراء دواجن بمبلغ ٣٠٠٠٠ جنيه على الحساب من شركة القاهرة للدواجن.
- في ٢٠١٤/١/٢٦ شراء أعلاف بمبلغ ١٥٠٠٠ جنيه نقداً.
- في ٢٠١٤/١/٣٠ دفع ٥٠٠٠ جنيه كأجور عمال عن شهر يناير.

المطلوب: تقييد العمليات المالية السابقة بدفتر يومية المشروع، ثم ترحيل هذه العمليات إلى حساباتها بدفتر الأستاذ واستخراج رصيد كل حساب، ثم عمل ميزان المراجعة بالمجاميع والأرصدة معاً.

السؤال الثاني: (٦٠ درجة)

إذا كان لديك الأرصدة المستخرجة من دفاتر أحد المشروعات الزراعية في ٢٠١٢/١٢/٣١ وهي:

الأرصدة المدينة بالجنيه:

١٥٠٠٠٠ أراضي، ٧٠٠٠٠ مباني، ٥٠٠٠٠ آلات ومعدات، ٢٢٠٠٠ مشتريات، ٥٠٠٠ عمولة وكلاء الشراء، ٤٢٠٠٠ بضاعة في ٢٠١٤/١/١، ٣٣٠٠٠ مرتبات، ٦٠٠٠ إيجار، ٣٠٠٠ مصروفات إدارية، ٣٠٠٠ مصروفات بيع وتوزيع، ٢٠٠٠ خصم مسموح به، ١٠٠٠٠ مدينون، ١٠٠٠٠ أوراق قبض، ٣٠٠٠٠ أوراق مالية، ٤٠٠٠٠ نقدية بالصندوق، ٦٠٠٠٠ نقدية بالبنك، ٣٠٠٠ ديون معدومة، ٥٠٠٠ فائدة مدينة، ٥٠٠٠ مسحوبات.

الأرصدة الدائنة بالجنيه:

٣٦٠٠٠٠ رأس المال، ٦٠٠٠٠ مبيعات، ٢٠٠٠ مردودات مشتريات، ٥٠٠٠٠ قرض، ١٠٠٠٠ دائنون، ٥٠٠٠ خصم مكتسب، ٢٠٠٠٠ أوراق دفع، ٣٠٠٠ ديون معدومة، ٨٠٠٠٠ بضاعة في ٢٠١٢/١٢/٣١.

المطلوب: عمل كل من حسابي المتاجرة والأرباح والخسائر عن السنة المنتهية في ٢٠١٢/١٢/٣١، وإعداد الميزانية في ذلك التاريخ.

مع أطيب الأمنيات بالتوفيق والنجاح،،،،،،

جامعة الإسكندرية
ALEXANDRIA UNIVERSITY
كلية الزراعة

قسم الاقتصاد

وإدارة الأعمال الزراعية

مقرر اقتصاد ٢٦٤٩٨

"موضوعات معاصرة في مجال العلوم
الاقتصادية والاجتماعية الزراعية"

الفصل الدراسي الأول

للعام الجامعي ٢٠١٤/١٣م

الامتحان النهائي

(الفرقة الرابعة)

لجنة الممتحنين: أ.د. أحمد أبوالبزيد الرسول، أ.د. رفيق بسيم محمد، د. سامح محمد شهاب

"إذا لم تزد في الحياة شيئاً.. كنت أنت زائداً عليها.."

أجب عن ١٠ أسئلة مما يأتي (درجة كل سؤال ١٠):

١. تتعدد تعريفات التنمية المستدامة؛ أذكر ٣ من أهم هذه التعريفات.

٢. أذكر أهم خصائص و مؤشرات التنمية المستدامة.

٣. أذكر الأهداف الإنمائية للألفية الثالثة MDG.

٤. ما هي أهم المؤتمرات الدولية التي عقدت لمناقشة العلاقة بين البيئة والتنمية؟ ثم وضح المقصود بتقويم الأثر البيئي EIA.

٥. تتعدد نماذج التنمية المستدامة؛ أذكر ٣ من هذه النماذج.

٦. فرق بين مبادئ حكومة أستراليا الغربية و مبادئ Gibson للاستدامة.

٧. أذكر أهم أسباب عدم كفاية التشريعات والقوانين البيئية للحد من التلوث البيئي.

٨. ما المقصود بالاقتصاد القائم على المعرفة؟ وما هي أهم ركائز و متطلبات هذا الاقتصاد؟

٩. تتعدد نظريات الاستثمار؛ فرق بين نظرية الكبح المالي، نظرية النمو الحديثة، نظرية Tobin.

١٠. ما هي أهم العناصر الفرعية المكونة لعناصر مؤشر الاقتصاد القائم على المعرفة؟

١١. ما هي أهم خصائص الاقتصاد القائم على المعرفة مقارنةً بالاقتصاد التقليدي؟



أطيب الأمنيات

جامعة الإسكندرية
كلية الزراعة
قسم الاقتصاد وإدارة الأعمال الزراعية
الفرقة: رابعة .

جامعة الإسكندرية
ALEXANDRIA UNIVERSITY
كلية الزراعة

اسم وكود المقرر: ٠٣٤٠٣
الاحصاء الاقتصادي
مدة الامتحان: ساعتان
تاريخ وميعاد الامتحان: ٢٠١٣/١/٢٠ من ٩-١١
الدرجة الكلية للامتحان: ٢١٠ درجة

العام الجامعي ٢٠١٣/٢٠١٤ الفصل الدراسي الاول

لجنة الممتحنين: ١- أ.د. اوليفيا صالح ٢- أ.د. رفعت لقوشة ٣- أ.د. أحمد أبو اليزيد

تعليمات الإجابة:

أجب على جميع الأسئلة التالية:

السؤال الأول: (٧٠ درجة)

١- ما المقصود بالمصطلحات الآتية:

النزعة المركزية - البيانات الثانوية - كسر العمود - التباين - التكرار المعدل.

٢- بين بالرسم فقط:

أ- أشكال الانتشار التي تبين وجود ارتباط بين متغيرين

ب- معامل الارتباط ج- المنحنى الاسي

د- العلاقة بين الوسط الحسابي والوسيط والمنوال في منحنى ملتو التواء موجب.

السؤال الثاني: (٧٠ درجة)

في دراسة للعلاقة بين سعر الكتاب وعدد صفحاته تم جمع البيانات التالية لعينة من الكتب

سعر الكتاب	١٢٠	١٠٠	٧٠	٨٠	٧٠	١٥٠	١٠٠
عدد الصفحات	٢٠٠	٣٠٠	٤٠٠	٤٠٠	٥٠٠	٦٠٠	٦٠٠

المطلوب: هل هناك ارتباط بين سعر الكتاب وعدد صفحاته مستخدماً

(١) معامل ارتباط بيرسون

(٢) معامل ارتباط سبيرمان للرتب.

السؤال الثالث: (٧٠ درجة)

الجدول التالي يبين دخل واستهلاك سبع أسر في أحد الأحياء بمدينة ما.

الدخل (س)	٣٨	٣٢	٤٢	٤٨	٤٠	٤٤	٥٠
الاستهلاك (ص)	٢٤	٢١	٢٧	٣٠	٢٧	٣٣	٣٦

المطلوب: ١- ايجاد خط انحدار الاستهلاك (ص) على الدخل (س)

٢- تقدير قيمة الاستهلاك عندما يكون الدخل ٦٠ جنيه.

(نهاية أسئلة الامتحان)

مع أطيب التمنيات بالنجاح والتوفيق

جامعة الإسكندرية
كلية الزراعة
قسم الاقتصاد وإدارة الأعمال الزراعية
الفرقة: رابعة

اسم وكود المقرر: اقتصاد زراعي ٣٤١٥٠
مبادىء المحاسبة الزراعية
(لائحة قديمة)
مدة الامتحان: ساعتان
تاريخ وميعاد الامتحان: ٢٠١٤/١/٥ من ٩-١١
الدرجة الكلية للامتحان: ١٢٠ درجة

العام الجامعي ٢٠١٣/٢٠١٤ الفصل الدراسي الأول

لجنة الممتحنين: ١- أ.د. السيد الشرقاوي ٢- أ.د. الحسين الصيفي ٣- أ.د. عون خير الله عون

تعليمات الإجابة: أجب على جميع الأسئلة الآتية:

السؤال الأول: (٦٠ درجة)

١- عرف مايلي : الأصول الثابتة ، الأصول المتداولة ، الخصوم، العملية المالية، معادلة الميزانية.

٢- في ٢٠١٣/١٠/١ بدأ محمود إبراهيم مشروعه الزراعي بالأصول والخصوم التالية:

٢٠٠٠٠٠ جنيه أراضي ومباني، ٨٠٠٠٠ آلات وماكينات، ١٠٠ أسهم، ٣٠٠٠٠ نقدية بالصندوق، ٢٠٠٠٠٠ قرض من بنك القرية.

وفي الأيام التالية من شهر أكتوبر ٢٠١٣ قام المشروع بالعمليات التالية:

- في ٢٠١٣/١٠/٢ تم شراء بذور وتقاوي بمبلغ ٢٠٠٠٠ جنيه نقداً.
- في ٢٠١٣/١٠/٣ تم بيع محاصيل قيمتها ٣٠٠٠ جنيه نقداً.
- في ٢٠١٣/١٠/٨ سحب محمود إبراهيم ٢٠٠٠ جنيه من الصندوق لمصروفاته الشخصية.
- في ٢٠١٣/١٠/١٤ تم شراء ماشية قيمتها ٢٠٠٠٠ جنيه من التاجر محمود حسين دفع من ثمنها ٢٠٠٠٠ جنيه والباقي على الحساب.
- في ٢٠١٣/١٠/٢٠ دفع أجور عمال قيمتها ٣٠٠٠ جنيه ، وتكاليف صيانة آلات قيمتها ١٠٠٠ جنيه.

المطلوب: تسجيل هذه العمليات في دفتر اليومية، والترحيل إلى دفتر الأستاذ، وإعداد ميزان المراجعة بالأرصدة.

السؤال الثاني: (٦٠ درجة)

فيما يلي ميزان المراجعة المستخرج من دفاتر شركة الرافعي في ٢٠١٢/١٢/٣١ :

أرصدة مدينة بالجنيه:

٣٠٠٠ مسحوبات ، ١٥٠٠٠٠ سيارات، ١٦٠٠٠٠ أراضي ومباني ، ٧٥٠٠٠ بضاعة أول المدة في ٢٠١٢/١/١ ، ٨٠٠٠٠ مشتريات، ٢٠٠٠ مردودات مبيعات، ٣٠٠٠٠ مرتبات ، ٨٠٠٠ خصم مسموح به، ٦٠٠٠ ديون معدومة ، ٤٥٠٠٠ مدينون ، ١٥٠٠٠ أوراق قبض، ٢٠٠٠ فائدة قرض، ٧٣٠٠٠ نقدية بالصندوق.

أرصدة دائنة بالجنيه:

٢٠٠٠٠٠ رأس المال، ٢٥٠٠٠٠ مبيعات، ٣٠٠٠ مردودات مشتريات، ١١٠٠٠ خصم مكتسب، ٣٥٠٠٠ دائنون ، ١٠٠٠٠٠ قرض، فإذا علمت أن بضاعة آخر المدة قدرت بمبلغ ٤٠٠٠٠ جنيه.

المطلوب: إعداد حساب المتاجرة ، وحساب الأرباح والخسائر ، والميزانية العمومية في ٢٠١٢/١٢/٣١.

نهاية أسئلة الامتحان

مع أطيب التمنيات بالنجاح والتوفيق،،،،،

الموضوع: استبيان عن الأطفال ذوي الإعاقة السمعية بمدينة الأحساء. التاريخ: ٢٠١٤/١١/١٣م الموافق ١٤٣٥/٢/١٠هـ

تحية طيبة وبعد،

تقوم الباحثة بدراسة بعنوان: "الإعاقة السمعية لدى الأطفال وعلاقتها بالتكيف الاجتماعي والنفسي لدى أسرهم بمدينة الأحساء" وذلك استكمالاً لمتطلبات الحصول على درجة الماجستير في الخدمة الاجتماعية من كلية الآداب بجامعة الملك فيصل.

ونظراً لما تتمتعون به من خبرة ودراية في هذا المجال، فإن الباحثة تأمل تعاونكم معها في تحكيم أداة الدراسة المرفقة، وذلك بإبداء الرأي في مدى مناسبة كل عبارة لما وضعت لقياسه، وإضافة أو حذف ما ترونه مناسباً.

وتفضلوا بقبول فائق الاحترام والتقدير،

الباحثة: [illegible]

أولاً: البيانات الأولية:

١- النوع: ذكر ( ) أنثى ( )

٢- العمر: ( ) سنة

٣- المؤهل العلمي:

٤- التخصص:

٥- الوظيفة الحالية:

٦- سنوات الخبرة في مجال العمل:

ثانياً: محاور الاستبيان: (يرجى وضع علامة (✓) أمام العبارة التي ترونها مناسبة)

م	العبارة	مناسبة	تحتاج إلى تعديل	غير مناسبة
١	[illegible]			
٢	[illegible]			
٣	[illegible]			
٤	[illegible]			
٥	[illegible]			
٦	[illegible]			
٧	[illegible]			
٨	[illegible]			
٩	[illegible]			
١٠	[illegible]			

ثالثاً: أسئلة مفتوحة: (يرجى الإجابة)

١- [illegible]

٢- [illegible]

٣- [illegible]

٤- [illegible]

٥- [illegible]

شاكرين لكم حسن تعاونكم معنا

مع أطيب التمنيات بالنجاح والتوفيق

الباحثة: [illegible]

جامعة الإسكندرية
كلية الزراعة
قسم الاقتصاد وإدارة الأعمال الزراعية
الفرقة: الرابعة

اسم وكود المقرر: أعمال زراعية ٣٤٠٣.
أعمال النقل والتخزين والمواني
مدة الامتحان: ساعتان
تاريخ وميعاد الامتحان: ٢٠١٢/١/١٤ من ٩-١١
الدرجة الكلية للامتحان: ١٨٠ درجة

العام الجامعي ٢٠١١/٢٠١٢ الفصل الدراسي الأول

لجنة الممتحنين: أ.د. السيد محمود الشرقاوي، أ.د. أوليفيا صالح ، أ.د. سعد زغلول

تعليمات الإجابة:
أجب على جميع الأسئلة الآتية

السؤال الأول: (٦٠ درجة)

يتردد في وسائل الإعلام حاليًا أن المخزون الاستراتيجي من القمح والدقيق في مصر في خطر.. فمن خلال دراستك لتخزين الحبوب هل يمكنك إيضاح مكمن هذا الخطر في ظل الأوضاع الاقتصادية الراهنة .. مستعيناً بالعناوين الآتية: (أ) مفهوم المخزون الاستراتيجي . (ب)السعات التخزينية الحالية والمستقبلية .

(ج) الفاقد من الحبوب وعلى رأسها القمح.

(د) إذا توفرت الاعتمادات المالية اللازمة لاستيراد كميات كبيرة من القمح هل ذلك ممكناً ويحل المشكلة.

السؤال الثاني: (٦٠ درجة)

لمنع تكدس البضائع داخل الميناء ، لابد من معرفة طاقة التخزين داخل الميناء ومعرفة طاقة النقل داخل الميناء أيضاً.. اذكر فقط القوانين التي يجب الاستعانة بها في حساب كل من طاقة التخزين وطاقة النقل المشار اليهما، وذلك لتجنب مشكلة التكديس في الميناء.

السؤال الثالث: (٦٠ درجة)

بعد تخرجك عملت في الميناء بإدارة النقل وطلب منك وضع خطة لتشغيل عدد من القاطرات (أو السيارات) المتاحة للعمل في الميناء وهي أربعة أنواع D, C, B, A تستخدم على خطين (أو مسارين) هما X1, X2 وطاقة الخط الأول (X1) هي 700 طن وطاقة الخط الثاني (X2) هي 960 طن ولديك المعلومات والبيانات الآتية:

$$O.F = 700\,X1 + 960\,X2$$

$$4\,X1 + 4\,X2 \leq 40 \quad \ldots\ldots\ldots\ldots A$$

$$2\,X1 + 4\,X2 \leq 28 \quad \ldots\ldots\ldots\ldots B$$

$$0\,X1 + 8\,X2 \leq 32 \quad \ldots\ldots\ldots\ldots C$$

$$8\,X1 + 0\,X2 \leq 24 \quad \ldots\ldots\ldots\ldots D$$

وضح كيف يمكنك وضع خطة تشغيل مثلي تعظم دالة الهدف، مع كتابة تعليق إرشادي للعاملين في إدارة النقل بالميناء.

نهاية أسئلة الامتحان

مع أطيب التمنيات بالنجاح والتوفيق،،،

جامعة الإسكندرية
كلية الزراعة
قسم الاقتصاد وإدارة الأعمال الزراعية
الفرقة: الرابعة

اسم وكود المقرر: أعمال زراعية ٣٤٠١
القوانين والتشريعات المنظمة للتجارة الدولية
مدة الامتحان: ساعتان
تاريخ وميعاد الامتحان: ٢٠١٢/١/١٦ من ٩-١١
الدرجة الكلية للامتحان: ٢١٠ درجة

العام الجامعي ٢٠١١/٢٠١٢ الفصل الدراسي الأول

لجنة الممتحنين: أ.د. عبد النبي عبيد، أ.د. سعد زغلول، د. سامح شهاب

تعليمات الإجابة:

أجب على جميع الأسئلة الآتية

السؤال الأول: (٧٠ درجة)

١- ازداد حجم التجارة الدولية في العصر الحديث، ماهي الأسباب الرئيسية وراء ذلك.

٢- تكلم باختصار عن صور التكامل الاقتصادي.

٣- ماهي المبادئ الأساسية لاتفاقية الجات.

السؤال الثاني: (٧٠ درجة)

١- اكتب مذكرة مختصرة في قانون الاستيراد والتصدير المصري.

٢- تكلم باختصار عن المفاوضات الخاصة بتحرير تجارة السلع الزراعية في جولة أوروجواي وأهم العقبات التي تواجه تحرير تجارة السلع الزراعية.

٣- ماهي أهم آليات الحماية للمنتجات الزراعية ثم بين بالرسم البياني تكلفة الحماية على الاقتصاد القومي في حالة فرض تعريفه جمركية على الواردات من السلع الزراعية.

السؤال الثالث: (٧٠ درجة)

قل ما تعرفه عن: الصندوق الأخضر – الصندوق الأزرق – استثناءات البند الأدنى – الأطراف الرئيسية وأصحاب المصالح في مفاوضات اوروجواي حول المنتجات الزراعية – مقياس الدعم الكلي.

نهاية أسئلة الامتحان

مع أطيب التمنيات بالنجاح والتوفيق،،،

امعة الإسكندرية
ية الزراعة
سم الاقتصاد وإدارة الأعمال
زراعية
فرقة: رابعة

اسم وكود المقرر: اقتصاد زراعي ٣٤٠٩ .
اقتصاديات التنمية الزراعية
مدة الامتحان: ساعتان
تاريخ وميعاد الامتحان: ٢٠١٢/١/٢١ من ٩ ـ ١٠
الدرجة الكلية للامتحان: ٢١٠ درجة

العام الجامعي ٢٠١١/٢٠١٢ الفصل الدراسي الأول

جنة الممتحنين: أ.د. نجوى عبد المنعم مصطفى، أ.د. حسني حبيب متولي، د. سامح حسن شهاب

تعليمات الإجابة:

الإجابة على ثلاثة أسئلة فقط

السؤال الأول: (٧٠ درجة)

١- أذكر خصائص عوامل الإنتاج للدول النامية مع توضيح إحداها.
٢- وضح مفهوم الفقر في الدول المتخلفة.

السؤال الثاني: (٧٠ درجة)

الصادرات للدول النامية وسيلة لتنمية المجتمع. بين أهميتها؟ والعقبات الداخلية والخارجية التي تواجه الدول النامية عند التصدير.

السؤال الثالث: (٧٠ درجة)

عرف الأزمة المالية العالمية سبتمبر ٢٠٠٨ مع بيان مظاهرها وأسبابها وتأثيرها على الاقتصاد العربي والمصري وآليات مواجهتها؟

السؤال الرابع: (٧٠ درجة)

وضح مبادىء الزراعة المتواصلة متضمناً المعايير المناسبة لكل مبدأ مع بيان العوامل المؤثرة على استدامة الزراعة

نهاية أسئلة الامتحان

مع أطيب التمنيات بالنجاح والتوفيق،،،

جامعة الإسكندرية
كلية الزراعة
قسم الاقتصاد وإدارة الأعمال الزراعية
الفرقة: ثالثة دراسات

اسم وكود المقرر: أعمال زراعية ٠٣٤٠٥
نظم الجودة والممارسات الزراعية
مدة الامتحان: ساعتان
تاريخ وميعاد الامتحان: ٢٠١٢/١/٢١ من ٩-١١
الدرجة الكلية للامتحان: ١٨٠ درجة

العام الجامعي ٢٠١١/٢٠١٢ الفصل الدراسي الثاني الدور الأول

لجنة الممتحنين: أ.د. السيد محمود الشرقاوي، أ.د. محمد محمد الماحي ، د. سامح شهاب

تعليمات الإجابة:
أجب على ثلاثة أسئلة منها السؤال الأول إجباري

السؤال الأول: (٦٠ درجة)

من الكلمات التي تتردد كثيراً في برامج الدعاية التسويقية في التليفزيون كلمة أيزو "ISO" ماذا تعني في إطار الجودة؟ أخذاً في الاعتبار كل من النقاط الآتية :

(أ) مفهوم الجودة الشاملة. (٢٠ درجة)

(ب) مراحل تحقيق وتطوير الجودة الشاملة. (٢٠ درجة)

(ج) أهم مزايا تطبيق أنظمة الجودة . (٢٠ درجة)

السؤال الثاني: (٦٠ درجة)

تتسبب موسمية الإنتاج الزراعي وطول الموسم الإنتاجي في حدوث عدم التوازن بين العرض والطلب في السوق فتظهر التقلبات السعرية الزراعية.. ما رأيك في ذلك؟ مستخدماً رسوم منحنيات العرض والطلب لإيضاح وتفسير هذه التقلبات السعرية الزراعية مع ضرب مثل من الواقع العملي من عندك؟

السؤال الثالث: (٦٠ درجة)

لاشك أن تغير المصر وفات التسويقية يؤثر على المنتج والمستهلك ويظهر ذلك الأثر بوضوح في حالة مقارنة أوضاع العرض والطلب في كل من سوق المنتج وسوق المستهلك.. كيف يتم ذلك؟

السؤال الرابع: (٦٠ درجة)

هناك عوامل كثيرة يتوقف عليها اختيار وسيلة النقل.. أذكر أهم هذه العوامل.. وهل بالضرورة استخدام وسيلة النقل الأرخص أي الأقل تكلفة في نقل السلعة الزراعية؟

نهاية أسئلة الامتحان

مع أطيب التمنيات بالنجاح والتوفيق،،،

جامعة الإسكندرية
كلية الزراعة
قسم الاقتصاد وإدارة الأعمال الزراعية

القوانين والتشريعات للتجارة الدولية
مدة الامتحان: ساعتان
تاريخ وميعاد الامتحان: السبت ٢٠١١/١/٢٢
من ٩-١١ صباحاً
درجة الامتحان : ٢٢٥ درجة

العام الجامعي ٢٠١٠/٢٠١١ الفصل الدراسي الأول

لجنة الممتحنين: أ.د. عبد النبي عبيد ، أ.د. سعد زغلول سليمان ، د. سامح شهاب

تعليمات الإجابة: أجب على جميع الأسئلة

السؤال الأول: (٧٥ درجة)

أ- ماهي أهم النظريات التي تفسر قيام التجارة الدولية؟ إشرحها باختصار.

ب- ما المقصود بكل من : منطقة التجارة الحرة – الاتحاد الجمركي – السوق المشتركة – الاتحاد الاقتصادي .

ج- ماهي أهم المنظمات الاقتصادية التابعة للأمم المتحدة واختصاص كل منها.

د- ماهي المبادئ الأساسية لاتفاقية الجات.

السؤال الثاني: (٧٥ درجة)

أ- ماهي أهم عوائق تحرير تجارة السلع الزراعية.

ب- ماهي الأطراف الرئيسية وأصحاب المصالح في المفاوضات الزراعية في اتفاقية الجات ومواقف كل مجموعة.

ج- ماهي أهم آليات الحماية وآثارها الاقتصادية؟

السؤال الثالث: (٧٥ درجة)

أ- أكتب مذكرة مختصرة حول اتفاق المشاركة المصرية الأوروبية.

ب- ماهي الملامح الرئيسية لقانون الاستيراد والتصدير في مصر.

ج- ماهي الملامح الرئيسية لقانون الجمارك في مصر.

(نهاية أسئلة الامتحان)

مع أطيب التمنيات بالنجاح والتوفيق

جامعة الإسكندرية
كلية الزراعة
قسم الاقتصاد وإدارة الأعمال الزراعية

اسم ورمز المقرر: اقتصاديات التنمية الزراعية
مدة الامتحان: ساعتان
تاريخ ومبعاد الامتحان: ٢٠١١/١/٢٢
من ٩-١١ صباحاً
درجة الامتحان : ٢١٠ درجة

العام الجامعي ٢٠١٠/٢٠١١ الفصل الدراسي الأول

لجنة الممتحنين: أ.د. نجوى عبد المنعم ، أ.د. حسني حبيب متولي، د. سامح شهاب

تعليمات الاجابة: أجب على جميع الأسئلة

السؤال الأول: (٥٠ درجة)

عرف التنمية الزراعية المتواصلة مع وصفها وبيان أهدافها موضحاً أثر الممارسات الزراعيات السلبية عليها والمقترحات التي تراها لتحقيقها.

السؤال الثاني: (١٠٠ درجة)

أكتب في أربع من الموضوعات التالية:

١- معوقات النمو لدول العالم الثالث.
٢- التغيرات التي لحقت بالزراعة المصرية حتى ٢٠١٠.
٣- خصائص العمالة الزراعية في الدول المتخلفة.
٤- مستوى الدخل والمعيشة لدول العالم الثالث.
٥- ظاهرة البطالة المهيكلية.

السؤال الثالث: (١٠٠ درجة)

١- تكلم بإيجاز عن الزراعة العضوية وأهدافها ومتطلبات التحول إليها والآفاق المستقبلية لها.
٢- وضح تحديات التنمية الزراعية المتواصلة.

(نهاية أسئلة الامتحان)

مع أطيب التمنيات بالنجاح والتوفيق

جامعة الإسكندرية

كلية الزراعة

قسم الاقتصاد وإدارة الاعمال الزراعية

- إسم وكود المقرر: اعمال زراعية ٠٣٤٠٥
نظم الجودة والممارسات الزراعية

مدة الامتحان: ساعتان

تاريخ وميعاد الامتحان: الاثنين ٢٠١٠/١/٢٤
٩-١١ صباحاً

درجة الامتحان : ١٨٠ درجة

العام الجامعي ٢٠١٠/٢٠١١ الفصل الدراسي الأول

لجنة الممتحنين: أ.د. السيد الشرقاوي ، أ.د. محمد محمد الماحي د. سامح شهاب

تعليمات الاجابة: أجب على جميع الأسئلة

السؤال الأول: (٦٠ درجة)

(أ) أذكر باختصار الدعائم التي يرتكز عليها مفهوم الجودة (٢٠ درجة)

(ب) فرق بين سلسلة (9000) (Iso) ، سلسلة (14000) (Iso) (٢٠ درجة)

(ج)ماهي الخطوات التي تتبع لتحقيق الجودة الشاملة (٢٠ درجة)

السؤال الثاني: (٦٠ درجة)

فرق بين ثلاثة فقط من بين المفاهيم الخمسة الآتية:

(أ) تاجر الجملة وتاجر التجزئة (٢٠ درجة)

(ب) عمليات التصنيع الزراعي الخاسرة للوزن والأخرى الكاسبة للوزن (٢٠ درجة)

(ج) الطلب الأولى (الابتدائي) على السلعة والطلب المشتق (٢٠ درجة)

(د) الخدمات التسويقية والعمليات (الوظائف التسويقية) (٢٠ درجة)

(هـ) تكاليف النقل للسكك الحديدية بالسيارات والنقل المائي (٢٠ درجة)

السؤال الثالث: (٦٠ درجة)

من خلال دراستك لعملية التعبئة والتغليف أجب على مايأتي:

(أ) لماذا نقوم بعملية التعبئة والتغليف بالرغم من أنها مكلفة (٣٠ درجة)

(ب) ماهي المبررات التي تستدعي تغيير العبوة ... من وجهة نظرك (٣٠ درجة)

(نهاية أسئلة الامتحان)

مع أطيب التمنيات بالنجاح والتوفي

جامعة الإسكندرية

كلية الزراعة

قسم الاقتصاد وإدارة الاعمال الزراعية

إسم وكود المقرر: [illegible]

نظم الجودة والممارسات الزراعية

مدة الامتحان: ساعتان

تاريخ وميعاد الامتحان: الاثنين ٢٤/١/٢٠١٠

٩--١١ صباحا

درجة الامتحان : ١٨٠ درجة

العام الجامعي ٢٠١٠/٢٠١١ الفصل الدراسي الأول

لجنة الممتحنين: أ.د. السيد الشرقاوي ، أ.د. محمد محمد الماحي د. سامح شهاب

تعليمات الاجابة: أجب على جميع الأسئلة

السؤال الأ ول: (٦٠ درجة)

(أ) أذكر باختصار الدعائم التي يرتكز عليها مفهوم الجودة (٢٠ درجة)

(ب) فرق بين سلسلة (9000) (Iso) ، سلسلة (14000) (Iso) (٢٠ درجة)

(ج)ماهي الخطوات التي تتبع لتحقيق الجودة الشاملة (٢٠ درجة)

السؤال الثاني: (٦٠ درجة)

فرق بين ثلاثة فقط من بين المفاهيم الخمسة الآتية:

(أ) تاجر الجملة وتاجر التجزئة (٢٠ درجة)

(ب) عمليات التصنيع الزراعي الخاسرة للوزن والأخرى الكاسبة للوزن (٢٠ درجة)

(ج) الطلب الأولى (الابتدائي) على السلعة والطلب المشتق (٢٠ درجة)

(د) الخدمات التسويقية والعمليات (الوظائف التسويقية) (٢٠ درجة)

(هـ) تكاليف النقل للسكك الحديدية بالسيارات والنقل المائي (٢٠ درجة)

السؤال الثالث: (٦٠ درجة)

من خلال دراستك لعملية التعبئة والتغليف أجب على مايأتي:

(أ) لماذا نقوم بعملية التعبئة والتغليف بالرغم من أنها مكلفة (٣٠ درجة)

(ب) ماهي المبررات التي تستدعي تغيير العبوة ... من وجهة نظرك (٣٠ درجة)

(نهاية أسئلة الامتحان)

مع أطيب التمنيات بالنجاح والتوفي

جامعة الإسكندرية
كلية الزراعة
قسم الاقتصاد وإدارة الاعمال الزراعية

اسم ودور المقرر : اقتصاديات النقل والتخزين والموارد

مدة الامتحان: ساعتان
تاريخ وميعاد الامتحان: السبت ١٥/١/٢٠١٠
٩--١١ صباحا
درجة الامتحان : ١٨٠ درجة

العام الجامعي ٢٠١٠/٢٠١١ الفصل الدراسي الأول

لجنة الممتحنين: أ.د. السيد الشرقاوي ، أ.د. أوليفيا صالح ، أ.د. سعد زغلول

تعليمات الاجابة: أجب على جميع الأسئلة

السؤال الأول: (٦٠ درجة)

إذا أبحرت سفينة من الميناء (أ) إلى الميناء (ب) وعليها أربعة آلاف طن بمسافة ٦٠٠ ميل وفي الميناء (ب) أفرغت من حمولتها ألفي طن وشحنت ألفي طن ثم أبحرت إلى الميناء (ج) لمسافة ١٢٠٠ ميل وبه أفرغت واحد ألف طن وشحنت ثلاثة آلاف طن ثم أتجهت إلى الميناء ألف مرة أخرى.

المطلوب: حساب معامل تحميل هذه السفينة خلال رحلتها عبر هذه الموانى علماً بأن حمولتها الصافية هي ستة آلاف طن .

السؤال الثاني: (٦٠ درجة)

أذكر فقط القوانين المستخدمة في حساب طاقة النقل داخل الميناء وأذكر أهمية حساب هذه الطاقة .

السؤال الثالث: (٦٠ درجة)

يعتبر القمح من المحاصيل الغذائية الاستراتيجية التي يتم انتاجها واستيرادها بكميات كبيرة في مصر... إلا أن هذه الكميات تتعرض لعمليات فقد كبيرة لوجود قصور في عملية التخزين . وضح ذلك من خلال اجابتك على النقاط الآتية:

أ- السعات التخزينية الحالية للقمح والدقيق (٢٠ درجة)

ب- السعات التخزينية المستقبلية للقمح والدقيق (٢٠ درجة)

ج- الجدوى الاقتصادية من إنشاء الصوامع (٢٠ درجة)

(نهاية أسئلة الامتحان)

مع أطيب التمنيات بالنجاح والتوفي

جامعة الإسكندرية
كلية الزراعة
قسم الاقتصاد وإدارة الاعمال الزراعية

اسم ورمز المقرر: نظم الجودة والممارسات الزراعية
مدة الامتحان: ساعتان
تاريخ وميعاد الامتحان: الاثنين ٢٠١٠/١/٢٤
٩-١١ صباحاً
درجة الامتحان : ١٨٠ درجة

العام الجامعي ٢٠١٠/٢٠١١ الفصل الدراسي الأول

لجنة الممتحنين: أ.د. السيد الشرقاوي ، أ.د. محمد محمد الماحي د. سامح شهاب

تعليمات الاجابة: أجب على جميع الأسئلة

السؤال الأول: (٦٠ درجة)

(أ) أذكر باختصار الدعائم التي يرتكز عليها مفهوم الجودة (٢٠ درجة)

(ب) فرق بين سلسلة (9000) (Iso) ، سلسلة (14000) (Iso) (٢٠ درجة)

(ج)ماهي الخطوات التي تتبع لتحقيق الجودة الشاملة (٢٠ درجة)

السؤال الثاني: (٦٠ درجة)

فرق بين ثلاثة فقط من بين المفاهيم الخمسة الآتية:

(أ) تاجر الجملة وتاجر التجزئة (٢٠ درجة)

(ب) عمليات التصنيع الزراعي الخاسرة للوزن والأخرى الكاسبة للوزن (٢٠ درجة)

(ج) الطلب الأولى (الابتدائي) على السلعة والطلب المشتق (٢٠ درجة)

(د) الخدمات التسويقية والعمليات (الوظائف التسويقية) (٢٠ درجة)

(هـ) تكاليف النقل للسكك الحديدية بالسيارات والنقل المائي (٢٠ درجة)

السؤال الثالث: (٦٠ درجة)

من خلال دراستك لعملية التعبئة والتغليف أجب على مايأتي:

(أ) لماذا نقوم بعملية التعبئة والتغليف بالرغم من أنها مكلفة (٣٠ درجة)

(ب) ماهي المبررات التي تستدعي تغيير العبوة ... من وجهة نظرك (٣٠ درجة)

(نهاية أسئلة الامتحان)

مع أطيب التمنيات بالنجاح والتوفي

جامعة الإسكندرية
كلية الزراعة
قسم الاقتصاد وإدارة الأعمال الزراعية
الفرقة: الرابعة

جامعة الإسكندرية
ALEXANDRIA UNIVERSITY
كلية الزراعة
Faculty of Agriculture

اسم وكود المقرر: ٠٣٤١٥
(مبادئ المحاسبة الزراعية)
مدة الإمتحان: ساعتان
تاريخ وميعاد الإمتحان: ٢٠١٦/١/١١ من ١٠-١٢
الدرجة الكلية للإمتحان: ١٢٠ درجة

العام الجامعي ٢٠١٥/٢٠١٦، الفصل الدراسي الأول

لجنة الممتحنين: ١- أ.د. محمد محمد الماحي ٢- أ.د. عون خير الله عون ٣- د. محمد علي فتح الله

السؤال الأول: (٦٠ درجة)

أ- وضح المقصود بكل من: المحاسبة المالية، الأصول وأنواعها، العملية المالية، رأس المال، العقارات والمنقولات.

ب- في ٢٠١٤/١/١ بدء أحد المشروعات الزراعية نشاطه الإنتاجي برأسمال (القيمة بالألف جنيه) موزع في الأصول التالية:

١٠٠ مباني، ٣٠ عدد وأدوات، ٥٠ حيوانات، ٢٠ أسمدة كيماوية، ٣٠ أعلاف، ١٠ أدوية بيطرية، ١٠ تقاوي، ٢٠ نقدية بالصندوق، ٣٠ نقدية بالبنك.

المطلوب: تقييد الأصول السابقة بدفتر يومية المشروع. ثم ترحيل هذه الأصول إلى حساباتها بدفتر الأستاذ واستخراج رصيد كل حساب، ثم عمل ميزان المراجعة بالمجاميع والأرصدة معاً.

السؤال الثاني: (٦٠ درجة)

إذا كان لديك الأرصدة المستخرجة من دفاتر أحد المشروعات الزراعية في ٢٠١٣/١٢/٣١ وهي:

الأرصدة المدينة بالجنيه:

٧٠٠٠٠ مباني، ٥٠٠٠٠ معدات، ٣٠٠٠٠ مشتريات، ٤٠٠٠ مردودات مبيعات، ٣٠٠٠ عمولة وكلاء الشراء، ٤٠٠٠٠ بضاعة في ٢٠١٣/١/١، ٢٠٠٠٠ مرتبات، ٦٠٠٠ إيجار، ٣٠٠٠ مصروفات إدارية، ٥٠٠٠ مصروفات بيع وتوزيع، ٢٠٠٠ خصم مسموح به، ١٠٠٠٠ مدينون، ١٠٠٠٠ أوراق قبض، ٣٠٠٠٠ أوراق مالية، ٤٠٠٠٠ نقدية بالصندوق، ٦٠٠٠٠ نقدية بالبنك، ٣٠٠٠ ديون معدومة، ٥٠٠٠ فائدة مدينة، ٢٠٠٠ مسحوبات.

الأرصدة الدائنة بالجنيه:

٣٦٠٠٠٠ رأس المال، ٦٠٠٠٠ مبيعات، ٢٠٠٠ مردودات مشتريات، ٥٠٠٠٠ قرض، ١٠٠٠٠ دائنون، ٥٠٠٠ خصم مكتسب، ٢٠٠٠٠ أوراق دفع، ٣٠٠٠ فائدة دائنة، ٧٠٠٠٠ بضاعة في ٢٠١٣/١٢/٣١.

المطلوب: عمل كل من حسابي المتاجرة والأرباح والخسائر عن السنة المنتهية في ٢٠١٣/١٢/٣١، وإعداد الميزانية في ذلك التاريخ.

مع أطيب الأمنيات بالتوفيق والنجاح،،،،،،،

جامعة الإسكندرية
كلية الزراعة
قسم الاقتصاد وإدارة الاعمال الزراعية
الفرقة: الرابعة

اسم وكود المقرر: ٣٣٢٤ اقتصاديات الغابات

مدة الامتحان: ساعتين
تاريخ وميعاد الامتحان: ٢٠١٤/١/٩ ٩-١١
الدرجة : ١٨٠

امتحان الفصل الدراسي الاول العام الجامعي ٢٠١٣/٢٠١٤

لجنة الممتحنين: أ.د. الحسين الصيفي ، أ.د. عصام أبو الوفا، أ.د. أوليفيا صالح

تعليمات الإجابة:

أجب على جميع الأسئلة الآتية

السؤال الأول: (٦٠ درجة)

وضح مع الرسم

توازن المنتج في سوق المنافسة الكاملة في المدى الطويل – مراحل دالة الإنتاج – الناتج المعظم للربح ، الناتج الأمثل – نقطة الإغلاق.

السؤال الثاني: (٦٠ درجة)

١- محددات النموذج السوقي.

٢- العوامل المؤثرة على الطلب

٣- وضح طريقة عمل الميزانية الإنتاجية

٤- ماهي المعايير المستخدمة في دراسة الجدوى الاقتصادية

السؤال الثالث: (٦٠ درجة)

إذا كانت لديك البيانات التالية :

١- سحب المهندس خالد من حسابه الجاري بالبنك مبلغ وقدره ٢٥٠٠٠ جنيه أودعهم صندوق مزرعته في يوم ٢٠١٣/١/١.

٢- اشترى أعلاف قيمتها ٦٠٠٠ جنيه على الحساب من الشركة المتحدة للاعلاف.

٣- باع أعلاف قيمتها ٣٠٠٠ جنيه نقداً في يوم ٢٠١٣/١/٣.

٤- سدد المهندس / خالد مبلغ وقدره ٢٥٠٠ جنيه للشركة المتحدة للأعلاف في يوم ٢٠١٣/١/٤.

٥- استأجر عمالة قيمتها ١٠٠٠ جنيه في يوم ٢٠١٣/١/٥.

المطلوب: تقييد هذه القيود في دفتر يومية وترحيلها إلى دفتر الأستاذ. وعمل الميزانية بالأرصدة والمجاميع.

نهاية أسئلة الامتحان

مع أطيب التمنيات بالنجاح والتوفيق،،،

جامعة الإسكندرية
كلية الزراعة
قسم الاقتصاد وإدارة الأعمال الزراعية

اسم ورمز
القوانين والتشريعات
مدة الامتحان: ساعتان
تاريخ وميعاد الامتحان: السبت ٢٢/١/٢٠١١
من ٩-١١ صباحاً
درجة الامتحان : ٢٢٥ درجة

العام الجامعي ٢٠١٠/٢٠١١ الفصل الدراسي الأول

لجنة الممتحنين: أ.د. عبد النبي عبيد ، أ.د. سعد زغلول سليمان ، د. سامح شهاب

تعليمات الإجابة: أجب على جميع الأسئلة

السؤال الأول: (٧٥ درجة)

أ- ماهي أهم النظريات التي تفسر قيام التجارة الدولية؟ إشرحها باختصار.

ب- ما المقصود بكل من : منطقة التجارة الحرة – الاتحاد الجمركي – السوق المشتركة – الاتحاد الاقتصادي .

ج- ماهي أهم المنظمات الاقتصادية التابعة للأمم المتحدة واختصاص كل منها.

د- ماهي المبادئ الأساسية لإتفاقية الجات.

السؤال الثاني: (٧٥ درجة)

أ- ماهي أهم عوائق تحرير تجارة السلع الزراعية.

ب- ماهي الأطراف الرئيسية وأصحاب المصالح في المفاوضات الزراعية في اتفاقية الجات ومواقف كل مجموعة.

ج- ماهي أهم آليات الحماية وآثارها الاقتصادية؟

السؤال الثالث: (٧٥ درجة)

أ- أكتب مذكرة مختصرة حول اتفاق المشاركة المصرية الأوروبية.

ب- ماهي الملامح الرئيسية لقانون الاستيراد والتصدير في مصر.

ج- ماهي الملامح الرئيسية لقانون الجمارك في مصر.

(نهاية أسئلة الامتحان)

مع أطيب التمنيات بالنجاح والتوفيق

جامعة الإسكندرية
كلية الزراعة
قسم الاقتصاد وإدارة الأعمال الزراعية
الفرقة: رابعة

اسم وكود المقرر: أعمال زراعيه ٤٠٦
نظم الرقابة على الصادرات والواردات
مدة الامتحان: ساعتان
تاريخ وميعاد الامتحان: ٢٠١١/٦/٢٧ من ٩-١١
الدرجة الكلية للامتحان: ٢١٠ درجة

العام الجامعي ٢٠١٠/٢٠١١ الفصل الدراسي الثاني

لجنة الممتحنين: ١-أ.د. عبد النبي بسيوني عبيد ٢- أ.د. رفعت عبد الوهاب لقوشة ٣- أ.د. سعد زغلول سليمان

تعليمات الإجابة:

أجب على جميع الأسئلة

السؤال الأول: (٧٠ درجة)

"أنشئت الهيئة العامة للرقابة على الصادرات والواردات بقرار جمهوري في ١٩٧١ كجهاز خدمي وتنفيذي يقوم بمباشرة مجموعة من الأنشطة" والمطلوب:

١- بيان الأنشطة التي تتولاها الهيئة

٢- خطوات فحص وتحليل الصادرات

٣- شهادات المنشأ التي تصدرها

٤- السلع الخاضعة للرقابة النوعية على الصادرات .

٥- الهيكل الاداري الهيئة

السؤال الثاني: (٧٠ درجة)

"إتفاقية تحرير التجارة العالمية (الجات) تشتمل على مايعرف باتفاق تدابير الصحة والصحة النباتية" تكلم باختصار عن هذا الاتفاق الذي يحكم حركة التجارة العالمية فيما يتعلق بمواصفات السلع وتحليل المخاطر.

السؤال الثالث: (٧٠ درجة)

تكلم باختصار عن:

١- دستور الغذاء العالمي (CAC).

٢- الاتفاقية الدولية لوقاية النبات (IPPC)

٣- المكتب الدولي للأوبئة (OIE).

نهاية أسئلة الامتحان

جامعة الإسكندرية
كلية الزراعة
قسم الاقتصاد وإدارة الأعمال الزراعية
الفرقة: رابعة

٤٠٤ اسم وكود المقرر: أعمال زراعية ٤٠٤
التسويق والتجارة الالكترونية
مدة الامتحان: ساعتان
تاريخ وميعاد الامتحان: ٢٠١١/٦/٢٥ من ٩-١١
الدرجة الكلية للامتحان: ١٦٠ درجة

العام الجامعي ٢٠١٠/٢٠١١ الفصل الدراسي الثاني

لجنة الممتحنين: ١- أ.د. السيد الشرقاوي ٢- أ.د. أوليفيا صالح ٣- أ.د. محمد الماحي

تعليمات الإجابة:

١- أجب على ثلاثة أسئلة فقط متضمنة السؤال الأول

٢- لن يلتفت إلى إجابة أي سؤال زائد عن المطلوب

السؤال الأول: إجباري (٤٠ درجة)

"لاشك أن التسويق الالكتروني والتجارة الالكترونية يختلف عن التسويق التقليدي". إرسم شكلاً تخطيطياً يوضح ذلك من خلال دراستك ومعرفتك للتنوع السوقي في ظل هذا النوع الجديد من التسويق والتجارة؟

السؤال الثاني: (٤٠ درجة)

أكتب خمسة سطور فقط في كل نقطة من النقاط الخمسة التسويقية التالية:

١- تطوير وتغليف السلعة ممكن لكن هل الخدمة ممكن أيضاً؟ (١٠ درجة)

٢- (PG) السالبة ياترى أفضل من الموجبة ؟ (١٠ درجة)

٣- حتى العولمة دخلت في التسويق والتجارة الالكترونية وأثرت عليه .. كيف؟ (١٠ درجة)

٤- تسعى المنظمة إلى زيادة (DV) لارضاء العميل .. مارأيك ؟ (١٠ درجة)

السؤال الثالث: (٤٠ درجة)

إذا كانت الكمية المطلوبة أثناء السنة هي ٣٢٠٠ وحدة وتكلفة أمر الشراء للطلبية هي ١٠ جنيه وتكلفة الاحتفاظ للوحدة هي ٠,٢ جنيه وتكلفة النفاذ للوحدة هي ٠,٤ جنيه.. وبصفتك متخصص في التسويق والادارة طلب منك مدير الشركة حساب العدد الاقتصادي للطلبيات الواجبة للكمية المطلوبة حتى يتجنب المدير الخسائر المترتبة على زيادة التكاليف.. فماهي كمية الطلبية الواحدة وعدد الطلبيات التي سيتم تنفيذها في إدارة المشتريات وإدارة الإنتاج.

السؤال الرابع: (٤٠ درجة)

يقال .. أن هناك طرق بيانية وحسابية لتقدير الكمية الاقتصادية من مستلزمات الإنتاج للمشروع .. مارأيك؟ مدللاً (مبرهناً) على صحة هذا الرأي بضرب مثل واحد بياني معتمداً عليه أسماء المدخلات المستخدمة في الشكل.. وضرب مثل آخر -- مجرد -- كتابة أي قانون تراه مناسباً لحساب هذه الكمية بمعلومية معدل السحب ومعدل الإنتاج اليومي مع ذكر ماتعنيه الحروف التي سوف تستخدم في القانون الذي قمت باختياره وتتصدى به لحساب المطلوب؟

.. (نهاية أسئلة الامتحان)

مع أطيب التمنيات بالنجاح والتوفيق

جامعة الإسكندرية
كلية الزراعة
قسم الاقتصاد وإدارة الأعمال الزراعية
الفرقة: رابعة مجتمع ريفي

إسم وكود المقرر: ٠٣٤٠٨
التعاون الزراعي
مدة الامتحان: ساعتان
تاريخ وميعاد الامتحان: ٢٠١١/٦/١٨ من ٩-١١
الدرجة الكلية للامتحان: ٢١٠ درجة

العام الجامعي ٢٠١٠/٢٠١١ الفصل الدراسي الثاني

لجنة الممتحنين: ١- أ.د. عبد اللطيف القاق ٢- أ.د. رفعت لقوشة ٣- أ.د. سعد زغلول سليمان

تعليمات الإجابة:

١ - أجب على جميع الأسئلة التالية:

السؤال الأول: (٥٠ درجة)

"لقد كانت طبيعة النظام الاقتصادي في أوروبا قبل قيام الثورة الصناعية (أواخر القرن ١٨) آثاراً واضحة انعكست في زيادة قاعدة المعدمين والتفاوت الواضح في توزيع الملكيات الزراعية"

أ- ناقش العبارة السابقة في ضوء مادرست. (٢٥ درجة)

ب- إشرح باختصار الخطوات الرئيسية لإنشاء الجمعيات التعاونية. (٢٥ درجة)

السؤال الثاني: (٥٠ درجة)

أ- وضح رأيك باختصار بصدد التسويق التعاوني في ظل التحرر الاقتصادي. (٢٥ درجة)

ب-اعرض لدور التعاونيات الزراعية بمناطق الائتمان الزراعي في مجالات التنمية الريفية. (٢٥ درجة)

السؤال الثالث: (٥٠ درجة)

"يرى البعض أن التشريع التعاوني الزراعي المصري الحالي يشوبه بعض القصور مما يجعله غير ملائماً لمسايرة التغيرات الاقتصادية والاجتماعية والسياسية."

أ- إشرح العبارة السابقة موضحاً أهم القضايا الواجب أن يتضمنها التشريع. (٢٥ درجة)

ب- ضع مقترحا بالتعديلات الخاصة بالتشريعات القائمة في إطار محدداتها. (٢٥ درجة)

السؤال الرابع: (٦٠ درجة)

اشرح باختصار أهم الملامح الخاصة والأفكار التعاونية لكل من رائدي التعاون الإنتاجي والاستهلاكي .

(نهاية أسئلة الامتحان)

مع أطيب التمنيات بالنجاح والتوفيق

جامعة الإسكندرية
كلية الزراعة
قسم الاقتصاد وإدارة الأحمال
الزراعية
الفرقة: رابعة

اسم وكود المقرر: اقتصاد زراعي ٣٤١٥٠
مبادئ المحاسبة
مدة الامتحان: ساعتان
تاريخ وميعاد الامتحان: ٢٠١١/٦/٢٩ من ٩-١١
الدرجة الكلية للامتحان: ١٨٠ درجة

العام الجامعي ٢٠١٠/٢٠١١ الفصل الدراسي الثاني

لجنة الممتحنين: ١- أ.د. عبد اللطيف الثاق ٢- أ.د. رفعت لقوشة ٣- أ.د. حسني حبيب السيد متولي*

تعليمات الإجابة:
أجب على جميع الأسئلة

السؤال الأول: (٦٠ درجة)

١- عرف الميزانية العمومية مبيناً طرق تبويبها. (١٥ درجة)

٢- من دفاتر احدى المزارع العاملة في نشاط تسمين الدجاج استخرجت البيانات التالية عن السنة المنتهية في ٢٠١٠/١٢/٣١ (٤٥ درجة)

القيمة بالجنيه	العدد	البيـــــــان
٢٢٥٠٠	٩٠٠٠	رصيد أول المدة من الدجاج (٢,٥ جنيه للوحدة)
١٠٠٠٠٠٠	٤٠٠٠٠٠	مشتريات الدجاج (٢,٥ جنيه للوحدة)
١٣٠٠	٤٠٠	دجاج نافق (٣,٢٥ جنيه للوحدة)
٢٢٧٥٠٠٠	٤٧٥٠٠	مبيعات الدجاج نقداً (٥ جنيه وبتكلفة ٣,٢٥ جنيه)
٧٥٠٠٠		الأراضي
٩٠٠٠٠		العنابر والمباني (تستهلك بمعدل ٣%)
٥٢٥٠٠		الأدوات والمعدات (تستهلك بمعدل ١٠%)
٦٥٥٠٠		التمويل بقرض (الفائدة ٩%)
١٨٠٠٠		الأعلاف
١٢٨٣٠		أجور ومرتبات
٤٠٠٠		مرتب طبيب بيطري
٣٠٠٠		مصاريف البيع
١٦٨٠٠		ايرادات أخرى

المطلوب: تصوير الحسابات اللازمة لمزرعة الدجاج عن السنة المنتهية في ٢٠١٠/١٢/٣١.

السؤال الثاني: (٦٠ درجة)

١- صور نموذجين لحسابين من حسابات مزارع الدجاج للتفريخ مبيناً مفردات كل جانب (٢٠ درجة)

٢- الأرصدة التالية استخرجت من ميزان مراجعة إحدى المنشآت التجارية في ٢٠١٠/١٢/٣١ بالجنيه. كما قدرت بضاعة آخر المدة بمبلغ ١٧٥٠٠ جنيه. (٤٠ درجة)

مدين	دائن	الحساب
٩٩٠٠		بضاعة أول المدة
٢٢٠٠٠٠		المشتريات
٢٦٤٠٠		عمولة وأجور الشراء
٤١٨٠		مصروفات نقل للداخل
	٣٢٤٥٠٠	المبيعات
٢٣٠٠٠		المرتبات
٤٩٥٠		الايجار
١٣١٩٠		الخصم المسموح به
١٤٨٥٠		المصروفات العمومية
٥٢٨٠		استهلاكات الآلات
	٣٩٦٠	الخصم المكتسب

المطلوب: تصوير حساب الأرباح والخسائر عن السنة المنتهية في ٢٠١٠/١٢/٣١.

السؤال الثالث: (٦٠ درجة)

١- في ٢٠١٠/٤/١ بدأت إحدى مزارع إنتاج الألبان نشاطها بالأموال التالية مقيمة بالجنيه (٢٥ درجة)

١٤٠٠٠٠ أراضي زراعية ٢٥٠٠٠ قرض من البنك

٩٥٠٠٠ مباني مزرعية (حظائر) ٧٠٠٠ نعم

١٢٥٠٠٠ ماشية ألبان

المطلوب: إجراء قيود رأس المال بيومية المزرعة، ثم ترحيلها إلى الأستاذ.

٢- إذا ماتوفرت لديك البيانات التالية عن إحدى المنشآت الصغيرة في ٢٠١٠/١٢/٣١ (٢٥ درجة)

أرصدة ميزان المراجعة	ملخص عام ٢٠١٠
١٢٠٠ عمولة وكلاء البيع	١٣٥٠ عمولة وكلاء البيع
١٣٠٠ إيجار المخازن	١٤٠٠ ايجار المخازن
١٩٠٠٠ مرتبات	٢٠٠٠٠ مرتبات
١١٠٠ مصروفات دعاية وإعلان	١٠٠٠ مصروفات دعاية وإعلان

المطلوب : اثبات القيود الجردية اللازمة لتسوية المصروفات المذكورة.

نهاية أسئلة الامتحان

جامعة الإسكندرية
كلية الزراعة
قسم الاقتصاد وإدارة الأعمال الزراعية
الفرقة: رابعة

اسم وكود المقرر: اقتصاد زراعي ٣٤١٥.
مبادىء المحاسبة
مدة الامتحان: ساعتان
تاريخ وميعاد الامتحان: ٢٠١١/٦/٢٩ من ٩-١١
الدرجة الكلية للامتحان: ١٨٠ درجة

العام الجامعي ٢٠١٠/٢٠١١ الفصل الدراسي الثاني

لجنة الممتحنين: ١-أ.د. عبد اللطيف القاني ٢- أ.د. رفعت لقوشة ٣- أ.د. حسني حبيب السيد متولي*

تعليمات الإجابة:

أجب على جميع الأسئلة

السؤال الأول: (٦٠ درجة)

١- عرف الميزانية العمومية مبيناً طرق تبويبها. (١٥ درجة)

٢- من دفاتر احدى المزارع العاملة في نشاط تسمين الدجاج استخرجت البيانات التالية عن السنة المنتهية في ٢٠١٠/١٢/٣١ (٤٥ درجة)

البيـــــــان	العدد	القيمة بالجنيه
رصيد أول المدة من الدجاج (٢,٥ جنيه الوحدة)	٩٠٠٠	٢٢٥٠٠
مشتريات الدجاج (٢,٥ جنيه للوحدة)	٤٠٠٠٠٠	١٠٠٠٠٠٠
دجاج نافق (٣,٢٥ جنيه الوحدة)	٤٠٠	١٣٠٠
مبيعات الدجاج نقداً (٥ جنيه وبتكلفة ٣,٢٥ جنيه)	٤٧٥٠٠	٢٣٧٥٠٠
الأراضي		٧٥٠٠٠
العنابر والمباني (تستهلك بمعدل ٣%)		٩٠٠٠٠
الأدوات والمعدات (تستهلك بمعدل ١٠%)		٥٢٥٠٠
التمويل يفرض (الفائدة ٩%)		٦٥٥٠٠
الأعلاف		١٨٠٠٠
أجور ومرتبات		١٢٨٣٠
مرتب طبيب بيطري		٤٠٠٠
مصاريف البيع		٣٠٠٠
ايرادات أخرى		١٦٨٠٠

المطلوب: تصوير الحسابات اللازمة لمزرعة الدجاج عن السنة المنتهية في ٢٠١٠/١٢/٣١.

السؤال الثاني: (٦٠ درجة)

١- صور نموذجين لحسابين من حسابات مزارع الدجاج للتفريخ مبيناً مفردات كل جانب (٢٠ درجة)

٢- الأرصدة التالية استخرجت من ميزان مراجعة إحدى المنشآت التجارية في ٢٠١٠/١٢/٣١ بالجنيه. كما قدرت بضاعة آخر المدة بمبلغ ١٧٥٠٠ جنيه. (٤٠ درجة)

مدين	دائن	الحساب
٩٩٠٠		بضاعة أول المدة
٢٢٠٠٠٠		المشتريات
٢٦٤٠٠		عمولة وأجور الشراء
٤١٨٠		مصروفات نقل للداخل
	٣٢٤٥٠٠	المبيعات
٣٣٠٠٠		المرتبات
٤٩٥٠		الايجار
١٣١٩٠		الخصم المسموح به
١٤٨٥٠		المصروفات العمومية
٥٢٨٠		استهلاكات الآلات
	٣٩٦٠	الخصم المكتسب

المطلوب: تصوير حساب الأرباح والخسائر عن السنة المنتهية في ٢٠١٠/١٢/٣١.

السؤال الثالث: (٦٠ درجة)

١- في ٢٠١٠/٤/١ بدأت إحدى مزارع إنتاج الألبان نشاطها بالأموال التالية مقيمة بالجنيه (٢٥ درجة)

١٤٠٠٠٠ أراضي زراعية — ٢٥٠٠٠ قرض من البنك

٩٥٠٠٠ مباني مزرعية (حظائر) — ٧٠٠٠ نعم

١٢٥٠٠٠ ماكينة ألبان

المطلوب: إجراء قيود رأس المال بيومية المزرعة، ثم ترحيلها إلى الأستاذ.

٢- إذا ماتوفرت لديك البيانات التالية عن إحدى المنشآت الصغيرة في ٢٠١٠/١٢/٣١ (٣٥ درجة)

أرصدة ميزان المراجعة	مايخص عام ٢٠١٠
١٢٠٠ عمولة وكلاء البيع	١٣٥٠ عمولة وكلاء البيع
١٣٠٠ إيجار المخازن	١٤٠٠ ايجار المخازن
١٩٠٠٠ مرتبات	٢٠٠٠٠ مرتبات
١١٠٠ مصروفات دعاية وإعلان	١٠٠٠ مصروفات دعاية وإعلان

المطلوب : اثبات القيود اليومية اللازمة لتسوية المصروفات المذكورة.

نهاية أسئلة الامتحان

جامعة الإسكندرية
كلية الزراعة
قسم الاقتصاد وإدارة الأعمال الزراعية
الفرقة: رابعة مجتمع ريفي

اسم وكود المقرر: ١٤٠٨ ٠
التعاون الزراعي
مدة الامتحان: ساعتان
تاريخ وميعاد الامتحان: ٢٠١١/٦/١٨ من ٩-١١
الدرجة الكلية للامتحان: ٢١٠ درجة

العام الجامعي ٢٠١٠/٢٠١١ الفصل الدراسي الثاني

لجنة الممتحنين: ١- أ.د. عبد اللطيف القاق ٢- أ.د. رفعت لقوشة ٣- أ.د. سعد زغلول سليمان

تعليمات الإجابة:

١- أجب على جميع الأسئلة التالية:

السؤال الأول: (٥٠ درجة)

"لقد كانت طبيعة النظام الاقتصادي في أوروبا قبل قيام الثورة الصناعية (أواخر القرن ١٨) آثاراً واضحة انعكست في زيادة قاعدة المعدمين والتفاوت الواضح في توزيع الملكيات الزراعية"

أ- ناقش العبارة السابقة في ضوء مادرست. (٢٥ درجة)

ب- إشرح باختصار الخطوات الرئيسية لإنشاء الجمعيات التعاونية. (٢٥ درجة)

السؤال الثاني: (٥٠ درجة)

أ- وضح رأيك باختصار بصدد التسويق التعاوني في ظل التحرر الاقتصادي. (٢٥ درجة)

ب-اعرض لدور التعاونيات الزراعية بمناطق الائتمان الزراعي في مجالات التنمية الريفية. (٢٥ درجة)

السؤال الثالث: (٥٠ درجة)

" يرى البعض أن التشريع التعاوني الزراعي المصري الحالي يشوبه بعض القصور مما يجعله غير ملائماً لمسايرة التغيرات الاقتصادية والاجتماعية والسياسية "

أ- إشرح العبارة السابقة موضحاً أهم القضايا الواجب أن يتضمنها التشريع. (٢٥ درجة)

ب- ضع مقترحاً بالتعديلات الخاصة بالتشريعات القائمة في إطار محدداتها. (٢٥ درجة)

السؤال الرابع: (٦٠ درجة)

اشرح باختصار أهم الملامح الخاصة والأفكار التعاونية لكل من رائدي التعاون الإنتاجي والاستهلاكي.

(نهاية أسئلة الامتحان)

مع أطيب التمنيات بالنجاح والتوفيق

جامعة الإسكندرية
كلية الزراعة
قسم الاقتصاد وإدارة الأعمال الزراعية
الفرقة: رابعة



اسم وكود المقرر: ٢٤١٨ .
دراسات الجدوى للمشروعات الزراعية
مدة الامتحان: ساعتان
تاريخ وميعاد الامتحان: ٢٠١١/٦/٢٧ من ٩-١١
الدرجة الكلية للامتحان: ٢١٠ درجة

العام الجامعي ٢٠١٠/٢٠١١ الفصل الدراسي الثاني

لجنة الممتحنين: ١- أ.د. نشوى عبدالحميد القطاوي ٢- أ.د. محمد محمد الهادي ٣- أ.د. الحسين عبداللطيف الصيفي

تعليمات الإجابة:

أجب على جميع الأسئلة التالية:

السؤال الأول: (٧٠ درجة)

الجدول التالي يوضح الإيرادات والتكاليف المتوقعة لأحد المشروعات الزراعية

السنة	إجمالي الإيرادات	إجمالي التكاليف	سعر الخصم			
			%١٠	%١٥	%٢٠	%٢٥
١	--	٢٠٠٠٠	٠,٩٠٩	٠,٨٧٠	٠,٨٣٣	٠,٨٠٠
٢	--	١٠٠٠٠	٠,٨٣٦	٠,٧٥٦	٠,٦٩٤	٠,٦٤٠
٣	١٧٥٠٠	٧٥٠٠	٠,٧٥١	٠,٦٥٨	٠,٥٧٩	٠,٥١٢
٤	١٧٥٠٠	٧٥٠٠	٠,٦٨٣	٠,٥٧٢	٠,٤٨٢	٠,٤١٠
٥	١٧٥٠٠	٧٥٠٠	٠,٦٢١	٠,٤٩٧	٠,٤٠٢	٠,٣٢٨
٦	١٧٥٠٠	٧٥٠٠	٠,٥٦٤	٠,٤٣٢	٠,٣٣٥	٠,٢٦٢
٧	١٧٥٠٠	٧٥٠٠	٠,٥١٣	٠,٣٧٦	٠,٢٧٩	٠,٢١٠

المطلوب: إجراء التحليل المالي لهذا المشروع، وأذكر انطباعك عن هذا المشروع إذا علمت أن تكلفة الفرصة البديلة ١٠%.

السؤال الثاني: (٧٠ درجة)

تناول بالشرح اثنان فقط مما يلي:

١- أهمية دراسة الجدوى الاقتصادية للمشروعات. (٣٥ درجة)

٢- دراسة الجدوى التمويلية وطرق سداد القروض. (٣٥ درجة)

٣- طرق حساب الإهلاكات للأصول الاستثمارية بجميع أنواعها. (٣٥ درجة)

السؤال الثالث: (٧٠ درجة)

(١) وضح مع الرسم : (٣٥ درجة)

دالة متوسطات التكاليف – تمدد وانكماش التكاليف – تمدد وانكماش الطلب – انتقال العرض – الناتج الأمثل، الناتج المعظم للربح، نقطة الإغلاق – توازن المنتج في سوق الاحتكار الكامل في المدى الطويل.

(٢) وضح مطولي: (٣٥ درجة)

- شروط سوق المنافسة الكاملة.
- كيفية تصميم ميزانية إنتاجية لإنتاج ثلاث نواتج زراعية.
- العوامل المؤثرة على طلب المنتجات الزراعية.

(نهاية أسئلة الامتحان)

مع أطيب التمنيات بالنجاح والتوفيق

جامعة الإسكندرية.

كلية الزراعة.

قسم الاقتصاد وإدارة الأعمال الزراعية.

الفرقة الرابعة.

اسم وكود المقرر: مبادئ الرياضة الاقتصادية. (٠٣٤٢٩).

مدة الامتحان: ساعتان.

تاريخ وميعاد الامتحان: ٢٠١١/٦/٢٢ (٩ ـ ١١)

الدرجة الكلية للامتحان : ٢١٠ درجة.

العام الجامعي ٢٠١٠/٢٠١١ الفصل الدراسي الثاني

لجنة الممتحنين : ١ـ أ.د. نشوى النطاوي. ٢ـ أ.د. مراد زكي. ٣ ـ د. سامح شهاب.

تعليمات الإجابة :

١ ـ أجب على الأسئلة الآتية.

٢ ـ عدد الصفحات: (٢).

السؤال الأول : (٧٠ درجة).

١ – باستخدام قاعدة كرامر حل نظام المعادلات: (٥٠ درجة).

$س_1 + س_2 + 2 س_3 = 8$

$- س_1 - 2 س_2 + 3 س_3 = 1$

$3 س_1 - 7 س_2 + 4 س_3 = 10$

٢ – أوجد النهايات العظمى والصغرى للدوال التالية: (٢٠ درجة).

(١) $ص = س^2 - 3 س + 1$ (١٠ درجات).

(٢) $ص = س^2 - 5 س + 6$ (١٠ درجات).

السؤال الثاني : (٧٠ درجة).

١ – إذا علمت أن: الربح = $70 س_1 + 60 س_2 + 80 س_3$ (٥٥ درجة).

$س_1 + س_2 + س_3 \leq 60$

$6 س_1 + 3 س_2 + س_3 \leq 70$

$4 س_1 + 2 س_2 + س_3 \leq 65$

أوجد الخطة المثلي باستخدام التي تحقق أقصى ربح ممكن.

(١من٢)

٢- أوجد قيمة ما يلي : (١٥ درجة).

(١) $\frac{٦ س^{٣} + ١٢ س^{٢} - ٩}{س^{٢} + ٤ س - ٣}$ (٥ درجات).

(٢) $٦ س٢ - ٧س - ٥$ (٥ درجات).

(٣) $(س٣ - ٣ س٢ + ٤ س - ٢) (س٢ - ٢س)$ (٥ درجات).

السؤال الثالث : (٧٠ درجة).

١ - عرف كل من : (٢٠ درجة).

الاقتصاد الرياضي ، المتغير ، الدالة ، المعادلة ، الاقتصاد القياسي

٢ - اذكر فقط كل من : (٣٠ درجة).

(١) استخدامات الرياضة في الاقتصاد. (٤ درجات).

(٢) أنواع الدوال. (٦ درجات).

(٣) أنواع المتغيرات. (٤ درجات).

(٤) أنواع الصيغ الرياضية. (٦ درجات).

(٥) أنواع النماذج الاقتصادية. (٤ درجات).

(٦) خطوات تحديد الشكل الرياضي النموذج والعوامل المحددة لعدد معادلاته. (٦ درجات).

٣ - وضح الفرق بين كل من : (٢٠ درجة).

(١) النظرية الاقتصادية والاقتصاد الرياضي والاقتصاد القياسي. (١٠ درجات).

(٢) الثابت والمعلمة. (٥ درجات).

(٣) الميل والمرونة. (٥ درجات).

(نهاية أسئلة الامتحان)

مع أطيب التمنيات بالنجاح والتوفيق

جامعة الإسكندرية
كلية الزراعة
قسم الاقتصاد وإدارة الأعمال الزراعية
الفرقة: رابعة

اسم ورمز المقرر: اقتصاد زراعي ٢٤١٠ : السياسات والبرامج الزراعية
مدة الامتحان: ساعتان
تاريخ وميعاد الامتحان: ٢٠١١/٦/٢٥ من ٩-١١
الدرجة الكلية للامتحان: ٢١٠ درجة

العام الجامعي ٢٠١٠/٢٠١١ الفصل الدراسي الثاني

لجنة الممتحنين: ١- أ.د. محمود عبد الهادي شافعي ٢- أ.د. نجوى عبد المنعم مصطفى ٣- أ.د. محمد محمد الملتي

تعليمات الإجابة:

أجب على جميع الأسئلة

السؤال الأول: (٧٠ درجة)

١- عرف المصطلحات الآتية: الإستراتيجية - السياسة الاقتصادية - التلوث البيئي - الفائض الزراعي - كفاءة الري - التضخم - الخطة. (٣٥ درجة)

٢- كون نموذج رياضي للسياسة الاقتصادية حيث الهدف النموذج تحقيق رفع مستوى التشغيل L - تخفيض مستوى الأسعار P و الأدوات المستخدمة لذلك الإنفاق الحكومي G ومعدل الأجور W مع إيضاح مكونات السياسة الاقتصادية ومضمونها ومبادئها. (٣٥ درجة)

السؤال الثاني: (٧٠ درجة)

١- أذكر مؤشرات معايير تحليل السياسات الزراعية مع شرح أحدها . (٣٠ درجة)

٢- تكلم بإيجاز عن السياسة الزراعية خلال الفترة ١٩٧٤ - ١٩٨٩. (٤٠ درجة)

السؤال الثالث: (٧٠ درجة)

١- ماهي الملامح الرئيسية لبرنامج الإصلاح الاقتصادي في المقتصد المصري مع بيان ايجابياته وسلبياته. (٣٥ درجة)

٢- ماهي أهداف سياسة الموارد الأرضية وأهم المشاكل والمعوقات التي تواجهها . (٣٥ درجة)

نهاية أسئلة الامتحان

جامعة الإسكندرية
كلية الزراعة
قسم الاقتصاد وإدارة الأعمال الزراعية
الفرقة: رابعة



٤٠ اسم وكود المقرر: ٣٤١١ ٠
السياسة والتنمية الزراعية
مدة الامتحان: ساعتان
تاريخ وميعاد الامتحان: ٢٠١٤/٥/٨ من ٩-١١ .
الدرجة الكلية للامتحان: ٢١٠ درجة

العام الجامعي ٢٠١٣/٢٠١٤ الفصل الدراسي الثاني

لجنة الممتحنين: ١- أ.د. نجوى عبد المنعم ٢- أ.د. أحمد أبو اليزيد ٣-د. دعاء حسين

تعليمات الإجابة:

أجب على جميع الأسئلة التالية:

السؤال الأول: (٧٠ درجة)

وضح المفاهيم الآتية:

الاستراتيجية – السياسة – الخطة – التخطيط – السياسة الاقتصادية وأنواعها – السياسة الزراعية .

السؤال الثاني: (٧٠ درجة)

وضح بإيجاز مؤشرات ومعايير تحليل السياسة الزراعية.

السؤال الثالث: (٧٠ درجة)

ماهي أهداف وملامح برنامج الإصلاح الاقتصادي الذي بدأ في مصر ١٩٩٠ مع ذكر الايجابيات والسلبيات

أ.د.

(نهاية أسئلة الامتحان)

مع أطيب التمنيات بالنجاح والتوفيق

نجوى

دعاء حسين

جامعة الإسكندرية
كلية الزراعة
قسم الاقتصاد وإدارة الأعمال الزراعية
الفرقة: رابعة

اسم وكود المقرر: اقتصاد زراعي ٣٤١٢.
اقتصاديات المشروعات الصغيرة والحرفية

مدة الامتحان: ساعتان
تاريخ وميعاد الامتحان: ٢٠١٤/٥/١٨ من ٩-١١
الدرجة الكلية للامتحان: ١٨٠ درجة

العام الجامعي ٢٠١٣/٢٠١٤ الفصل الدراسي الثاني

لجنة الممتحنين: ١ أ.د. عبد اللطيف القاق ٢-أ.د. نجوى عبد المنعم مصطفى ٣-د. دعاء حسين إبراهيم

تعليمات الإجابة: أجب على جميع الأسئلة الآتية.

السؤال الأول: (٦٠ درجة)

أ- يمكن تصنيف المشروعات الصغيرة وفقاً لمعايير متعددة، إشرح هذه العبارة. (٢٠ درجة).

ب- وضح بالرسم كل من دورة حياة المشروعات الصغيرة، والتطور التاريخي لفكرة حاضنات المشروعات الصغيرة. (٢٠ درجة).

جـ- في نقاط محددة وضح أهم المهارات التي يجب أن يلم بها أصحاب المشروعات الصغيرة. (٢٠ درجة).

السؤال الثاني: (٦٠ درجة)

تتميز المشروعات الصغيرة بالعديد من المميزات والخصائص التي تجعل لها الأولوية والمفاضلة إختيارها بين أحجام المشروعات المختلفة" في ضوء تلك العبارة، وضح أهم مقومات ومميزات وعيوب المشروعات صغيرة الحجم وأبرز المعوقات والمشاكل التي تواجه هذه المشروعات.

السؤال الثالث: (٦٠ درجة)

أ- أشرح بإختصار مفهوم "التعاقد من الباطن" موضحاً أهم أشكاله ومميزاته التي تساعد على نجاح هذا النشاط. (٢٠ درجة).

ب- في ضوء دراستك لمفهوم حاضنات الأعمال، أذكر الأنواع المختلفة للحاضنات موضحاً أهميتها ودورها في التنمية (٢٠ درجة).

جـ- فيما لا يزيد عن ٣ سطور وضح اثر المشروعات الصغيرة في القضاء على مشكلة البطالة محلياً ودولياً. (٢٠ درجة).

نهاية أسئلة الامتحان

مع أطيب التمنيات بالنجاح والتوفيق،،،

ب . أنقل الجدول التالي في كراسة الإجابة ، ثم حدد عدد وحدات حجم الناتج ، والمسمى الاقتصادي له ، ونوع الأرباح عند المستويات السعرية الواردة بالجدول :

مستوى السعر	عدد وحدات حجم الناتج	المسمى الاقتصادي لحجم الناتج	نوع الأرباح
١	.....	.....	.....
٢	.....	.....	.....
٥	.....	.....	.....

(٤) من الشكل المقابل أنقل الجدول التالي بكراسة الإجابة ثم حدد نوع الربح أو الخسارة عند المستويات السعرية السائدة:

(٩ درجات)

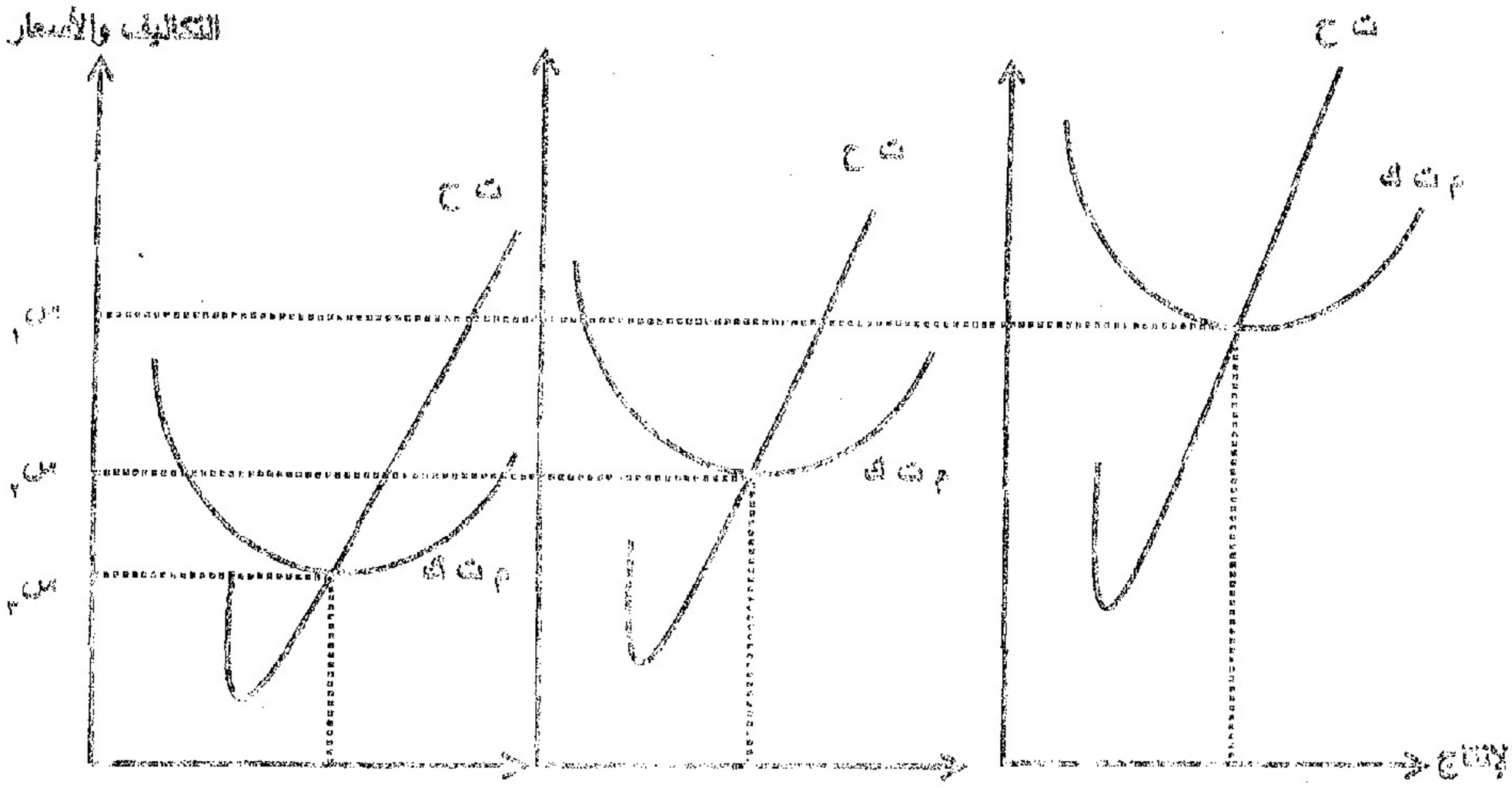

سعر الناتج	المنتج (أ)	المنتج (ب)	المنتج (ج)
س ١	.....	.....	.....
س ٢	.....	.....	.....
س ٣	.....	.....	.....

(نهاية أسئلة الامتحان)

مع أطيب التمنيات بالنجاح والتوفيق

(٤من ٤)

السؤال الثالث - بإستخدام المنحنيات التالية اجب عن الأتي: (٤٠ درجة).

(١) من الشكل المقابل - أكمل العبارات التالية بعد نقلها بكراسة الإجابة: (٣ درجات)



أ - النقطة (A) أسلوب مكثف .....

ب - النقطة (B) أسلوب مكثف .....

ت - يستخدم الشكل المقابل في قياس .....

(٢) من الشكل المقابل أكمل العبارات التالية بعد نقلها بكراسة الإجابة: (١٢ درجات)

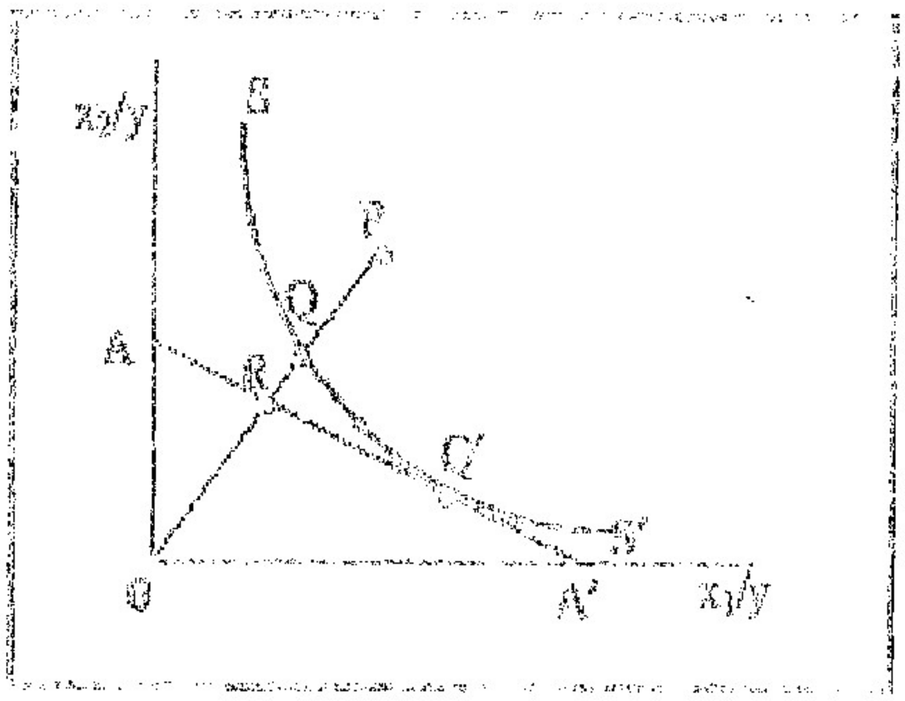

أ - (SS') يعرف بمنحنى .....

ب - (AA') يعرف بخط .....

ت - النقطة (Q) تحقق الكفاءة .....

وتقاس بالوحدات ..... ، ولا تحقق الكفاءة .....

ث - النقطة (R) تحقق الكفاءة ..... ،

وتقاس بالوحدات ..... ، ولا تحقق الكفاءة .....

ج - النقطة (P) لا تحقق الكفاءة ..... ، .....

ح - النقطة (Q') تحقق الكفاءة .....

وتحسب من خلال ..... X .....

(٣) من الشكل المقابل وضح ما يلي: (١٥ درجة)

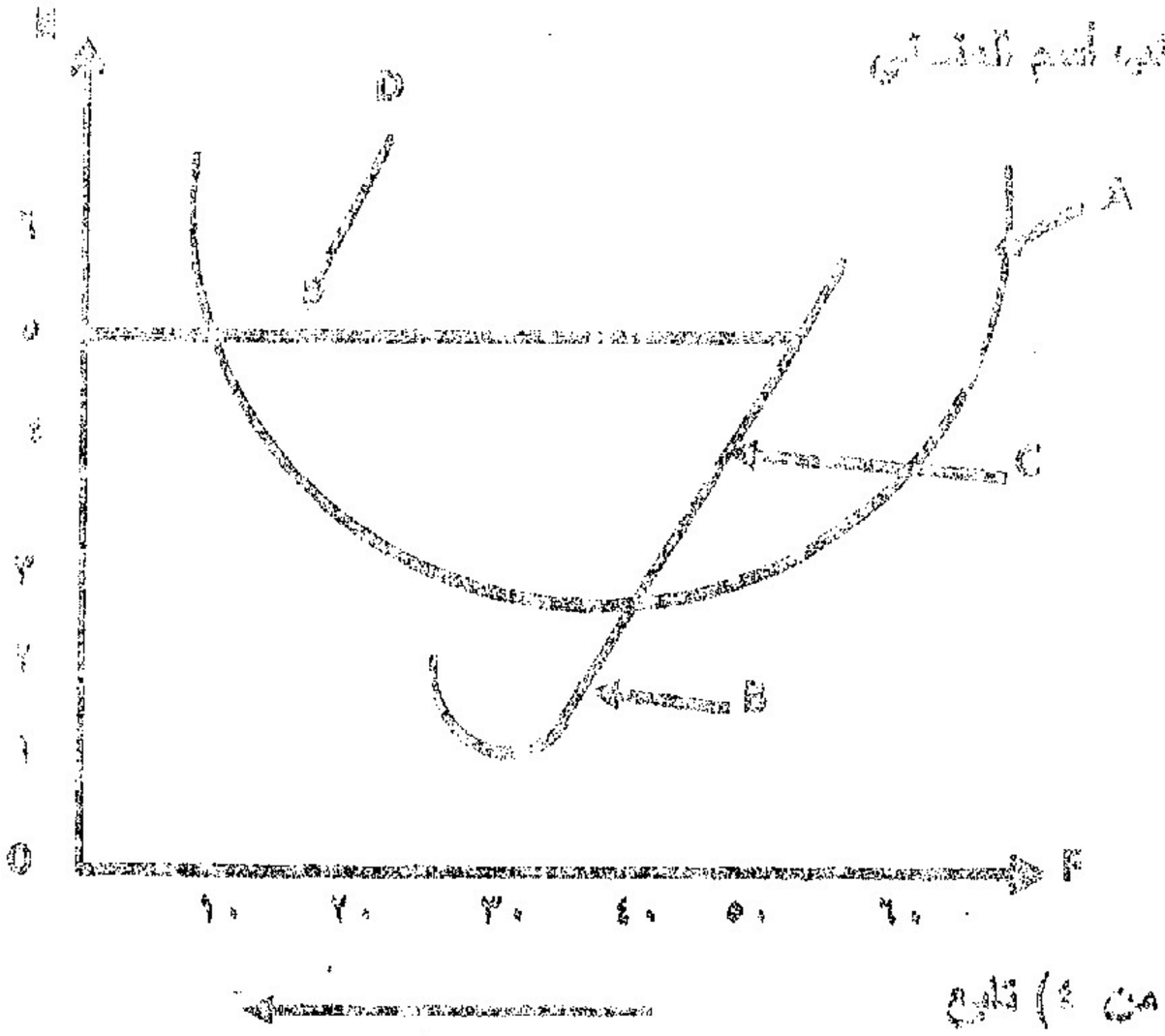

أ - انقل الجدول التالي في كراسة الإجابة، ثم اكتب أسم المنحنى أو البيان الدال على كل حرف:

الحرف	اسم المنحنى أو البيان
A	.....
B	.....
C	.....
D	.....
E	.....
F	.....

جامعة الإسكندرية
كلية الزراعة
قسم الاقتصاد وإدارة الاعمال الزراعية

اسم وكود المقرر: ٠٣٤١٨ دراسات الجدوى للمشروعات الزراعية
مدة الامتحان: ساعتان
تاريخ وميعاد الامتحان: ٢٠١٤/٥/٢٠ من ١١-١
الدرجة الكلية للامتحان: ١٦٠ درجة

الفرقة: رابعة .

العام الجامعي ٢٠١٣/٢٠١٤ الفصل الدراسي الثاني

لجنة الممتحنين: أ.د. الحسين الصيفي ، أ.د. نشوى التطاوي، أ.د. محمد الماحي

تعليمات الإجابة:
أجب على جميع الأسئلة الآتية

السؤال الأول: (٤٠ درجة)
١- وضح مع الرسم
توازن المنتج في سوق الاحتكار الكامل في المدى الطويل – مراحل دالة الإنتاج – الناتج المعظم للربح ، الناتج الأمثل – نقطة الإغلاق.

السؤال الثاني: (٤٠ درجة)
١- وضح محددات النموذج السوقي
٢- العوامل المؤثرة على الطلب
٣- ماهي المعايير المستخدمة في دراسة الجدوى الاقتصادية

السؤال الثالث: (٤٠ درجة)
"كلفت بإعداد دراسة جدوى اقتصادية لأحد المشروعات الاستثمارية"
وضح أهمية التخطيط لذلك المشروع بالنسبة للاقتصاد القومي ثم تناول باختصار تعريف المشروع ومكوناته وكيفية حساب اهلاكات أصوله الاستثمارية.

السؤال الرابع: (٦٠ درجة)
إذا كانت لديك البيانات التالية :
١- سحب المهندس عباس من حسابه الجاري بالبنك مبلغ وقدره ٢٥٠٠٠ جنيه أودعهم صندوق مزرعته في يوم ٢٠١٤/١/١.
٢- اشترى أعلاف قيمتها ٧٠٠٠ جنيه على الحساب من الشركة المتحدة للأعلاف في يوم ٢٠١٤/١/٢.
٣- باع أعلاف قيمتها ٢٥٠٠ جنيه نقداً في يوم ٢٠١٤/١/٣.
٤- سدد المهندس / عباس مبلغ وقدره ٤٥٠٠ جنيه للشركة المتحدة للأعلاف في يوم ٢٠١٤/١/٤.
٥- استأجر عمالة قيمتها ٧٠٠ جنيه في يوم ٢٠١٤/١/٥.

المطلوب: تقييد هذه القيود في دفتر يومية وترحيلها إلى دفتر الأستاذ. وعمل الميزانية بالأرصدة والمجاميع.

نهاية أسئلة الامتحان

مع أطيب التمنيات بالنجاح والتوفيق،،،

جامعة الإسكندرية
كلية الزراعة
قسم الاقتصاد وإدارة الاعمال الزراعية

الفرقة: الرابعة

اسم وكود المقرر: ٣٤٠٦ اقتصاديات الإنتاج الزراعي
مدة الامتحان: ساعتان
تاريخ وميعاد الامتحان: ٢٠١٤/٦/٤ من ٩ ١١
الدرجة الكلية للامتحان: ١٦٠ درجة

الفصل الدراسي الثاني ٢٠١٤/٢٠١٥

لجنة الممتحنين: أ.د. الحسين الصيفي، أ.د. عون خير الله عون ، أ.د. محمد علي فتح الله

تعليمات الإجابة:

(٢)

أجب على جميع الأسئلة الآتية

السؤال الأول: (٥٠ درجة)

١- وضح مع الرسم
مراحل دالة الإنتاج – دالة متوسطات التكاليف - الناتج المعظم للربح ، الناتج الأمثل- نقطة الإغلاق - توازن المنتج في سوق الاحتكار الكامل في المدى الطويل

السؤال الثاني: (٥٠ درجة)

١- العوامل المؤثرة على الطلب

٢- اذكر عناصر الإنتاج ثم تكلم عن إعدادها بالتفصيل .

٣- وضح محددات النموذج السوقي مع ذكر شروط سوق المنافسة الكاملة.

السؤال الثالث: (٦٠ درجة)

١- تكلم عن معني الريادة ثم وضح مفهومها واهميتها ومادي الصفات الريادية المهمة.
٢- ماهو دور الريادة في المجتمع موضحا صفات الرادي الناجح.
٣- ماهي مادي عناصر المزيج التسويقي.

نهاية أسئلة الامتحان

مع أطيب التمنيات بالنجاح والتوفيق،،،

جامعة الإسكندرية
كلية الزراعة
قسم الاقتصاد وإدارة الأعمال الزراعية
الفرقة: رابعة

اسم وكود المقرر: ٠٣٤٢٠ اقتصاديات المحاصيل الحقلية
مدة الامتحان: ساعتان
تاريخ وميعاد الامتحان: ٢٠١٥/٦/٨ من ٩-١١
الدرجة الكلية للامتحان: ٢١٠ درجة

(٢١)

العام الجامعي ٢٠١٤/٢٠١٥ الفصل الدراسي الثاني

لجنة الممتحنين: ١- أ.د. رفيق يسيم محمد ٢- أ.د. الحسين الصيفي ٣- د. محمد علي فتح الله

تعليمات الإجابة:

أجب على جميع الأسئلة

السؤال الأول: (٥٠ درجة)

١- ما الفرق بين السلع المرتبطة والسلع المتنافسة في عرض المحاصيل والسلع البديلة والمكملة في الطلب عليها

٢- اذكر أنواع مرونة العرض مبينا ذلك بالرسم.

السؤال الثاني: (٥٠ درجة)

بين بالرسم فقط:

السلع الدنيا المتحية - سلع الإشباع التام - انتقال منحنى الطلب - أسعار السلع التعويضية - متوسط التكاليف المتغيرة والحدية والكلية

السؤال الثالث: (٧٠ درجة)

١- ما المقصود بالمصطلحات التالية:

دالة الإنتاج - دالة التكاليف - الميزة النسبية - الدالة التكعيبية - أسواق احتكار القلة

٢- ماهي العلاقة بين منحنى الناتج الكلي والتكاليف المتغيرة

السؤال الرابع: (٤٠ درجة)

إذا كانت دالة طلب القمح تمثلها المعادلة التالية

$$D_A = A^{-2.5} B^{1.5}$$

حيث A: سعر القمح ، B سعر الذرة

المطلوب : أ) حساب المرونة السعرية للقمح

ب) حساب مرونة التقاطع بين القمح والذرة

ج) بين نوع العلاقة بين الطلب على السلعتين.

نهاية أسئلة الامتحان

جامعة الإسكندرية
كلية الزراعة
قسم الاقتصاد وإدارة الأعمال الزراعية
الفرقة: رابعة لائحة جديدة

اسم وكود المقرر: ٠٣٤٠٧ اقتصاديات التصنيع الزراعي
مدة الامتحان: ساعتان
تاريخ وميعاد الامتحان: ٢٠١٣/٦/١١ من ٩-١١
الدرجة الكلية للامتحان: ٢١٠ درجة

العام الجامعي ٢٠١٤ ٢٠١٥/٢٠١٤ الفصل الدراسي الثاني

لجنة الممتحنين : أ.د. نشوى التطاوي، أ.د. عون خير الله، أ.د. دعاء حسين (٩)

تعليمات الإجابة: اجب على جميع الأسئلة :

السؤال الأول (٧٠ درجة): اجب فى نقاط محددة مستعينا بالرسوم البيانية و المعادلات الرياضية كلما امكن ذلك:

١- الصناعات الزراعية. ٢-الاشكال القانونية لمنشآت الأعمال .
٣- الارقام القياسية. ٤ - نقطة التعادل. ٥- عناصر الانتاج الصناعى.

السؤال الثاني(٧٠ درجة): اذا كان لديك قائمة الدخل التالية:

البيان	الاجمالى(جنيه)	الوحدة(جنيه)
المبيعات (٣٠٠٠٠٠ وحدة)	١٥٠٠٠٠	٥
التكاليف المتغيرة	٩٠٠٠٠	؟؟؟؟؟؟
حد المساهمة	؟؟؟؟؟؟	؟؟؟؟؟
التكاليف الثابتة	٥٠٠٠٠	
صافى الدخل		

المطلوب: ١- أكمل الجدول السابق؟ ٢- اوجد هيكل التكاليف؟ ٣- اوجد معامل حد الامان؟
٤- اكتب قائمة دخل جديدة اذا زادت التكاليف الثابتة بعشرة الآف جنيه واثبق باقى المتغيرات؟

السؤال الثالث(٧٠ درجة): اذا كان لديك البيانات التالية:

النشاط	النشاط السابق	المسار	الوقت بالاسبوع		
			المتفائل	الاكثر احتمالا	المتشائم
أ	ـــــ	٢-١	٢	٤	٣.٥
ب	ـــــ	٣-١	٤	٦	٥
ج	أ	٣-٢	٠.٥	١.٥	١
د	ب،ج	٤-٣	٥.٦	١٥	٧
ل	د،ج	٥-٣	٥	٨	٦
و	د	٥-٤	٣	٥.٤	٤.٥

المطلوب: ١-ارسم شبكة الاعمال وحدد المسار الحرج.
٢- أوجد احتمال انتهاء الاعمال المزرعية السابقة فى ١٩ اسبوع.

ـــــــــــ (نهاية أسئلة الامتحان) ـــــــــــ مع أطيب التمنيات بالنجاح والتوفيق

جدول المساحات تحت التوزيع المعتدل

المساحة تحت التوزيع الطبيعي المعتدل
من صفر الى (Z)

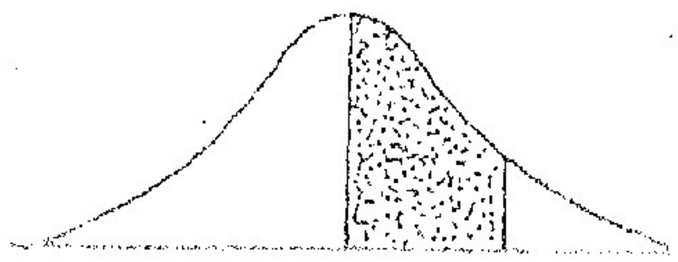

حيث احتمال Z ≤ ط :

= 0.5 + المساحة تحت التوزيع
من 0.0 الى Z = ط

	0.00	0.01	0.02	0.03	0.04	0.05	0.06	0.07	0.08	0.09
0.0	.0000	.0040	.0080	.0120	.0160	.0199	.0239	.0279	.0319	.0359
0.1	.0398	.0438	.0478	.0517	.0557	.0596	.0636	.0675	.0714	.0754
0.2	.0793	.0832	.0871	.0910	.0948	.0987	.1026	.1064	.1103	.1141
0.3	.1179	.1217	.1255	.1293	.1331	.1368	.1406	.1443	.1480	.1517
0.4	.1554	.1591	.1628	.1664	.1700	.1736	.1772	.1808	.1844	.1879
0.5	.1915	.1950	.1985	.2019	.2054	.2088	.2123	.2157	.2190	.2224
0.6	.2258	.2291	.2324	.2357	.2389	.2422	.2454	.2486	.2518	.2549
0.7	.2580	.2612	.2642	.2673	.2704	.2734	.2764	.2794	.2823	.2852
0.8	.2881	.2910	.2939	.2967	.2996	.3023	.3051	.3078	3106	.3133
0.9	3159	.3186	.3212	.3238	.3264	.3289	.3315	.3340	.3365	.3389
1.0	.3413	.3438	.3461	.3485	.3508	.3531	.3554	.3577	.3599	.3621
1.1	.3643	.3665	.3686	.3708	.3729	.3749	.3770	.3790	.3810	.3830
1.2	.3849	.3869	.3888	.3907	.3925	.3944	.3962	.3980	.3997	.4015
1.3	.4032	.4049	.4066	.4082	.4099	.4115	.4131	.4147	.4162	.4177
1.4	.4192	.4207	.4222	.4236	.4251	.4265	.4279	.4292	.4306	.4319
1.5	.4332	.4345	.4357	.4370	.4382	.4394	.4406	.4418	.4429	.4441
1.6	.4452	.4463	.4474	.4484	.4495	.4505	.4515	.4525	.4535	.4545
1.7	.4554	.4564	.4573	.4582	.4591	.4599	.4608	.4616	.4625	.4633
1.8	.4641	.4649	.4656	.4664	.4671	.4678	.4686	.4693	.4699	.4706
1.9	.4713	.4719	.4726	.4732	.4738	.4744	.4750	.4756	.4761	.4767
2.0	.4772	.4778	.4783	.4788	.4793	.4798	.4803	.4808	.4812	.4817
2.1	.4821	.4826	.4830	.4834	.4838	.4842	.4846	.4850	.4854	.4857
2.2	.4861	.4864	.4868	.4871	.4875	.4878	.4881	.4884	.4887	.4890
2.3	.4893	.4896	.4898	.4901	.4904	.4906	.4909	.4911	.4913	.4916
2.4	.4918	.4920	.4922	.4925	.4927	.4929	.4931	.4932	.4934	.4936
2.5	.4938	.4940	.4941	.4943	.4945	.4946	.4948	.4949	.4951	.4952
2.6	.4953	.4955	.4956	.4957	.4959	.4960	.4961	.4962	.4963	.4964
2.7	.4965	.4966	.4967	.4968	.4969	.4970	.4971	.4972	.4973	.4974
2.8	.4974	.4975	.4976	.4977	.4977	.4978	.4979	.4979	.4980	.4981
2.9	.4981	.4982	.4982	.4983	.4984	.4984	.4985	.4985	.4986	.4986
3.0	.4987	.4987	.4987	.4988	.4988	.4989	.4989	.4989	.4990	.4990
3.1	.4990	.4991	.4991	.4991	.4992	.4992	.4992	.4992	.4993	.4993
3.2	.4993	.4993	.4994	.4994	.4994	.4994	.4994	.4995	.4995	.4995
3.3	.4995	.4995	.4995	.4996	.4996	.4996	.4996	.4996	.4996	.4997
3.4	.4997	.4997	.4997	.4997	.4997	.4997	.4997	.4997	.4997	.4998
3.5	.4998	.4998	.4998	.4998	.4998	.4998	.4998	.4998	.4998	.4998
3.6	.4998	.4998	.4999	.4999	.4999	.4999	.4999	.4999	.4999	.4999
3.7	.4999	.4999	.4999	.4999	.4999	.4999	.4999	.4999	.4999	.4999
3.8	.4999	.4999	.4999	.4999	.4999	.4999	.4999	.4999	.4999	.4999
3.9	.5000	.5000	.5000	.5000	.5000	.5000	.5000	.5000	.5000	.5000

جامعة الإسكندرية
كلية الزراعة
قسم الاقتصاد وإدارة الأعمال الزراعية
الفرقة الرابعة

إسم وكود المقرر: ٠٣٤١٨ دراسات الجدوى للمشروعات الزراعية
مدة الامتحان: ساعتان
تاريخ وميعاد الامتحان: ٨/ ٦ /٢٠١٢ ٩-١١
الدرجة الكلية للامتحان: ٢١٠ درجة

العام الجامعي ٢٠١٤/٢٠١٥ الفصل الدراسي الثاني

لجنة الممتحنين: ١- أ.د. نشوى التطاوي ٢- أ.د. الحسين الصيفي ٣- أ.د. محمد الماحي

تعليمات الإجابة: أجب على جميع الأسئلة التالية:

السؤال الأول: (٧٠درجة) الجدول التالي يوضح الإيرادات والتكاليف المتوقعة لأحد المشروعات الزراعية

السنة	إجمالي الإيرادات	إجمالي التكاليف	سعر الخصم			
			%١٠	%١٥	%٢٠	%٢٥
١	-	٥٠٠٠	٠.٩٠٩	٠.٨٧٠	٠.٨٣٣	٠.٨٠٠
٢	٢٠٠٠	٥٠٠٠	٠.٨٣٦	٠.٧٥٦	٠.٦٩٤	٠.٦٤٠
٣	٥٥٠٠	١٥٠٠	٠.٧٥١	٠.٦٥٨	٠.٥٧٩	٠.٥١٢
٤	٥٥٠٠	١٥٠٠	٠.٦٨٣	٠.٥٧٢	٠.٤٨٢	٠.٤١٠
٥	٥٥٠٠	١٥٠٠	٠.٦٢١	٠.٤٩٧	٠.٤٠٢	٠.٣٢٨

المطلوب: إجراء التحليل المالي لهذا المشروع ، وهل تقبل هذا المشروع إذا علمت أن تكافة الفرصة البديلة ١٠% ؟

السؤال الثاني: (٧٠درجة)

وضح مع الرسم: محددات النموذج السوقي - توازن المنتج في سوق الاحتكار الكامل في المدى الطويل - مراحل دالة الإنتاج - الناتج المعظم للربح ، الناتج الأمثل- نقطة الإغلاق.

(ب) إذا كانت لديك البيانات التالية :١ - سحب المهندس حسن من حسابه الجاري بالبنك مبلغ وقدره ٢٧٠٠٠ جنيه أودعهم صندوق مزرعته في يوم ٢٠١٤/١/١.

٢-اشترى أعلاف قيمتها ٧٠٠٠ جنيه على الحساب من الشركة المتحدة للأعلاف في يوم ٢٠١٤/١/٢.

٣-باع أعلاف قيمتها ٤٥٠٠ جنيه نقداً في يوم ٢٠١٤/١/٣.

٤- سدد المهندس / حسن مبلغ وقدره ٢٥٠٠ جنيه للشركة المتحدة للأعلاف في يوم ٢٠١٤/١/٤.

٥- استأجر عمالة قيمتها ١٥٠٠ جنيه في يوم ٢٠١٤/١/٥.

المطلوب: تقييد هذه القيود في دفتر يومية وترحيلها إلى دفتر الأستاذ وعمل الميزانية بالأرصدة والمجاميع.

السؤال الثالث: تناول باختصار كل من: (٧٠درجة)

١- تعريف المشروع ومكوناته.

٢-الأسئلة التي تجيب عنها دراسة الجدوى.

٣- شبكة الاعمال والجدول الزمني لتنفيذ المشروع.

٤- قواعد واسس مدى امكانية قبول المشروع من الناحية التمويلية.

نهاية أسئلة الامتحان ---------- مع أطيب التمنيات بالنجاح والتوفيق،،،

جامعة الإسكندرية
ALEXANDRIA UNIVERSITY

كلية الزراعة

القسم: **الاقتصاد وإدارة الأعمال الزراعية**

المستوى: الرابعة

اسم و كود المقرر: ٠٣٤١١ – السياسة والتنمية الزراعية

مدة الامتحان: **ساعتين**

تاريخ و ميعاد الامتحان: ٢٠١٦/٦/٨ من ١٠–١٢

الدرجة الكلية للامتحان: ١٨٠

العام الجامعي ٢٠١٥/٢٠١٦ الفصل الدراسي الثاني

لجنة الممتحنين: ١– أ.د. أوليفيا السيد صالح ٢– أ.د. رفعت عبد الوهاب لقوشة ٣– أ.د. نجوى عبد المنعم مصطفى

تعليمات الإجابة:

أجب على جميع الأسئلة التالية:

السؤال الأول: (٦٠ درجة)

١- عرف المصطلحات الآتية:

الإستراتيجية، السياسة، التخطيط ، السياسة الزراعية وأهدافها، التنمية الزراعية المتواصلة وأهدافها والعوامل المؤثرة عليها.

٢- مؤشرات ومعايير تحليل وتقييم السياسة الزراعية.

السؤال الثاني: (٦٠ درجة)

١- ماهي أهداف برامج الإصلاح الزراعي في مصر.

٢- ماهي العوامل التي اتخذها سنجر لحساب النمو الاقتصادي. أذكر هذه العوامل ثم بين معادلة حسابها.

٣- بين بالرسم فقط المكاسب والتكاليف الاجتماعية لبرامج الدعم الحكومي مع بيان حساب صافي الخسارة الاجتماعية لكل من **جانب الإنتاج وجانب الاستهلاك.**

الامتحان من صفحتين
أنظر خلفه ←

السؤال الثالث: (٦٠ درجة)

أجب على مايلي:

أولاً – أكمل العبارات التالية وانقل الإجابة فقط إلى كراسة الإجابة بترقيمها وبالتتابع:

١- قد يكون هناك نمو في الدخل القومي ولكن هذا النمو قد لايوصف بأنه تنمية لأن .....

٢- الهدف من التنمية هو الخروج من التنمية لأن .....

٣- إذا كان من الممكن تعريف السياسة بأنها فن إدارة .....، فإنه – في هذه الحالة – يمكن القول بأن السياسة هي استثمار للزمن.

٤- مصطلح GESTION ينطبق على تدخل الدولة في إدارة سوق السلع الزراعية لأن .....

٥- تستهدف سياسات التنمية الزراعية خفض معدل ارتفاع الأسعار الزراعية مقارنة بمعدل التضخم على المستوى القومي لأن .....

٦- السعر التأشيري للسلع الزراعية في إطار السياسات الزراعية ليس هو أدنى سعر لشراء هذه السلع لأن .....

٧- التنمية الزراعية الأفقية تقود إلى زيادة أسعار السلع الزراعية لأن .....، وعلى العكس، فإن التنمية الزراعية الرأسية تقود إلى خفض أسعار هذه السلع لأن.....

٨- اهتمت النظريات المحدثة للتنمية الزراعية بزيادة إنتاجية العمل الزراعي، ويرى LUCAS أن زيادة هذه الإنتاجية هي دالة لـ .....، بينما يرى ROMER انها دالة لـ ..... ، في حين يرى BARRO انها دالة لـ .....

٩- اهتمت النظريات المحدثة للتنمية الزراعية بمكافحة الفقر وبرزت أفكار طرحها LOPP ، TRABOLD، BASLE، HUGON ، ومن وجهة نظرك فإن أفضل هذه الأفكار هي الأفكار التي طرحها ..... لأن .....

١٠- في الثورة الخضراء التي عرفتها التنمية الزراعية، كان معدل الإحلال الحدي بين العمل ورأس المال يساوي ..... لأن .....

١١- في التعريف المحدث للتنمية الزراعية، فان التنمية الأفقية تبدو مشروطة بـ .....

١٢- من بين المفاهيم الأساسية للتنمية المستدامة أن الموارد الطبيعية هي ..... وأنها لايمكن ..... من حيث الكيف ببدائل .....

١٣- وجود قاعدة علمية قوية هي شرط أساسي للتنمية ..... ، لأن هذه القاعدة قادرة على تحقيق شرط ..... و الذي يحول دون إنكار الحقائق.

١٤- إذا أردنا تحقيق تنمية زراعية ناجحة، فإن معدل نمو الناتج الزراعي الحقيقي لاينبغي أن يقل عن ..... لأن .....

١٥- التنمية المستدامة تعني أنها تنمية دائمة و .....

ثانياً – ضع علامة (√) أو علامة (×) أمام العبارات التالية .. مع التعليل:

١- تقدير MOUNIER لضرورة زيادة إنتاجية العمل الزراعي بحوالي ٢.٧% كأحد شروط نجاح التنمية الزراعية.. هو تقدير صحيح.

٢- في تجربة للتنمية الزراعية في دولة ما .. كان معدل التقدم التكنولوجي المدمج في رأس المال يعادل ٢% ومعدل التقدم التكنولوجي غير المدمج في رأس المال = -٣%، وبالتالي فهي تجربة ناجحة.

٣- إذا كانت مساحة الأراضي الزراعية القديمة في إحدى الدول تعادل ١٠ مليون هكتار، وخلال عدة سنوات تم اقتطاع مليون هكتار من هذه الأراضي، بينما تم – وخلال هذه السنوات – إضافة أراضي زراعية جديدة بحوالي ٠.٩ مليون هكتار، فان مضاعف التنمية الافقية – في هذه الحالة – يعادل (٤.٥).

٤- مفهوم التنمية المستدامة يبدو مرتبطاً بأحد تعاريف التنمية باعتبارها الكشف عن الإمكان المدخر في المادة.

(نهاية أسئلة الاختبار)

مع أطيب الأمنيات،،،،،

جامعة الإسكندرية
ALEXANDRIA UNIVERSITY
كلية الزراعة

القسم: **الاقتصاد وإدارة الأعمال الزراعية**

المستوى: الرابع

اسم و كود المقرر: ٠٣٤١٤ التعاون الزراعي

مدة الامتحان: **ساعتان**

تاريخ و ميعاد الامتحان: الأربعاء ٢٠١٦/٦/١٥م (١٠-١٢)

الدرجة الكلية للامتحان: ١٨٠ درجة

العام الجامعي ٢٠١٥/٢٠١٦، الفصل الدراسي الثاني

لجنة الممتحنين: أ.د/ عون خيرالله عون أ.د/ سعد زغلول سليمان د/ دعاء حسين إبراهيم

تعليمات الإجابة: أجب عن جميع الإسئلة التالية

السؤال الأول: (٤٥ درجة)

عرف التعاون مبيناً أهدافه والفرق بين المؤسسات التعاونية والمؤسسات الرأسمالية.

السؤال الثاني: وضح مايلي: (٤٥ درجة)

١- مبادئ الحلف التعاوني الدولي للتعاون الإستهلاكي.

٢- مبادئ باكن وشارس للتعاون التسويقي.

٣- القواعد المنظمة للمسئولية المالية للأعضاء.

السؤال الثالث: (٤٥ درجة)

وضح الأنواع المختلفة للجمعيات التعاونية.

السؤال الرابع: (٤٥ درجة)

١- وضح أوجه المقارنة بين كل من الجمعية العمومية ومجلس إدارة الجمعيات التعاونية، موضحاً تعريف واختصاصات كل منهما.

٢- " يختلف حجم الإحتياجات المالية للجمعيات التعاونية باختلاف عدة عوامل" في ضوء تلك العبارة وضح تلك العوامل، وأذكر في نقاط محددة الوسائل المباشرة وغير المباشرة للتمويل التعاوني.

(نهاية أسئلة الامتحان)

مع أطيب الأمنيات بالتوفيق والنجاح،،،،

جامعة الإسكندرية
ALEXANDRIA UNIVERSITY

كلية الزراعة

القسم: **الاقتصاد وإدارة الأعمال الزراعية**

المستوى: تكميلي دراسات عليا

اسم و كود المقرر: ٠٣٤٠٥ إدارة الأعمال الزراعية

مدة الامتحان: **ساعتان**

تاريخ و ميعاد الامتحان: الأربعاء ٢٠١٦/٦/٨م (١٠--١٢)

الدرجة الكلية للامتحان: ١٨٠ درجة

العام الجامعي ٢٠١٥/٢٠١٦، الفصل الدراسي الثاني

لجنة المتحنين: أ.د/ محمد محمد الماحي أ.د/ عبد اللطيف عطية القاق أ.د/ عصام عبد اللطيف أبو الوفا

تعليمات الإجابة: أجب عن جميع الإسئلة التالية

السؤال الأول: عرف كل من: (٤٥ درجة)

علم إدارة الأعمال الزراعية، منحنى لورنز، العرض الطبيعي والاقتصادي للمورد، الكفاءة، الملكية والحيازة، المعجل، الثمن الكسبي.

السؤال الثاني: أذكر فقط مايلي: (٤٥ درجة)

١- التعديلات التشريعية الأخيرة لتعديل العلاقة بين المالك والمستأجر في الأراضي الزراعية، وكيف يتم التعويض.
٢- تقدير قيمة الأراضي الصحراوية المستصلحة.

السؤال الثالث: تناول باختصار مايلي: (٤٥ درجة)

١- دور الإدارة في إدارة المورد المائي في الفترة الحالية والمستقبلية، وإمكانيات التوسع الحالي والمستقبلي في المشروعات.
٢- تطور إدارة ملكية الأراضي في مختلف العصور.
٣- الوسائل التي تتبعها الإدارة لزيادة العرض الاقتصادي للموارد الأرضية.

السؤال الرابع: وضح باختصار مايلي: (٤٥ درجة)

١- كيفية إدارة مورد الأرض، وطرق توجيه الموارد.
٢- حالات مرونة عرض المورد.

(نهاية أسئلة الامتحان)

مع أطيب الأمنيات بالتوفيق والنجاح،،،،

جامعة الإسكندرية
ALEXANDRIA UNIVERSITY
كلية الزراعة

القسم: الاقتصاد وإدارة الأعمال الزراعية
المستوى: دراسات عليا
اسم و كود المقرر:٠٣٤٠٣ – الاحصاء الاقتصادي
مدة الامتحان: ساعتين
تاريخ و ميعاد الامتحان:٢٠١٦/٥/٢٨
الدرجة الكلية للامتحان: ١٠٠

العام الجامعي ٢٠١٦/٢٠١٦ الفصل الدراسي الثاني

لجنة الممتحنين: ١– أ.د. علي يوسف خليفة ٢– أ.د. أوليفيا صالح ٣– د. ياسمين صلاح

تعليمات الإجابة:

أجب على جميع الأسئلة الآتية

السؤال الأول: (٣٠ درجة)

١- أوجد متوسط الانحرافات المطلقة عن وسيطها للبيانات التالية:

٢.٤ ، ١.٩ ، ٣.٨ ، ٤.١، ٤.٤، ٢.١

٢- الجدول التالي يوضح التوزيع التكراري لخمسين طالب حسب أوزانهم

فئات الوزن	٥٠-	٥٥-	٦٠-	٦٥-	٧٠-	٧٥-	٨٠- أقل من ٨٥
عدد الطلبة	٣	٥	١١	١٦	٩	٤	٢

بين نوع التوزيع ودرجته.

السؤال الثاني: (٢٥ درجة)

في إحدى السباقات قطعت المسافات التالية في الساعة

فئة المسافة	٢-	٤-	٦-	٨-	١٠-	١٢-	١٤-أقل من ١٦
عدد المتسابقين	٩	١٤	٢٢	٣٠	١٠	٨	٧

أوجد متوسط السرعة المسجلة في الساعة

السؤال الثالث: (١٥ درجة)

المدن أ، ب، ج متساوية في بعدها عن بعض سافر راكب بدراجة من أ إلى ب بسرعة ٣٠ كم في الساعة ومن ب إلى ج بسرعة ٤٠ كم في الساعة ومن ج إلى أ بسرعة ٥٠ كم في الساعة أوجد متوسط سرعته في الرحلة كلها.

السؤال الرابع: (١٠ درجة)

بافتراض أن مجـ ك = ١٠٢ وأن هناك ٩ فئات كلها متساوية لطول الفئة الأولى هى ١٠ إلى أقل من ٢٠ وكان التكرار المتجمع الصاعد للفئات الخامسة والسادسة والسابعة والثامنة هي بالترتيب كالآتي ٤٥، ٧٨، ٩٠، ٩٩ أحسب وسيط هذا التوزيع

(نهاية أسئلة الاختبار)

مع أطيب الأمنيات،،،،

جامعة الإسكندرية
ALEXANDRIA UNIVERSITY

كلية الزراعة

القسم: **الاقتصاد وإدارة الأعمال الزراعية**

المستوى: الرابع

اسم و كود المقرر: ٠٣٤٠٤ اقتصاديات استخدام الموارد الأرضية والمائية

مدة الامتحان: **ساعتان**

تاريخ و ميعاد الامتحان: الأحد ٢٠١٦/٦/١٢م (١٠-١٢)

الدرجة الكلية للامتحان: ١٨٠ درجة

العام الجامعي ٢٠١٥/٢٠١٦، الفصل الدراسي الثاني

لجنة الممتحنين: أ.د/ محمد محمد الماحي أ.د/ رفعت عبد الوهاب لقوشة د/ ياسمين صلاح عبد الرازق

تعليمات الإجابة:

- أسئلة الإمتحان في صفحتين (على جزئين)
- أجب عن جميع الإسئلة التالية

الجزء الأول: **(١٣٥ درجة)**

السؤال الأول: **(٩٠ درجة)**

أ- عرف مايلي: المكافئ الرقعي، السحب الآمن، الحجم الأمثل للسكان.

ب- وضح مايلي:

١- وسائل زيادة العرض الاقتصادي للمورد الأرضي.

٢- أنواع الفقد في الموارد الأرضية.

٣- أسباب الفقد في الإنتاجية.

٤- أنواع تصنيفات الأراضي الزراعية.

٥- المنشآت والسدود على نهر النيل لزيادة الإيراد المائي للنهر.

٦- مشروعات أعالي النيل لزيادة إيراد نهر النيل.

السؤال الثاني: تناول بالشرح مايلي: **(٤٥ درجة)**

١- أهم مشروعات تحسين الأراضي.

٢- مقاييس كفاءة استخدام الموارد الأرضية والمائية.

٣- أنواع المخاطرة واللايقين في الزراعة.

٤- علاقة التكنولوجي والحجم الأمثل للسكان.

(نهاية أسئلة الجزء الأول)

جامعة الإسكندرية
ALEXANDRIA UNIVERSITY

كلية الزراعة

القسم: **الاقتصاد وإدارة الأعمال الزراعية**

المستوى: الرابع

اسم و كود المقرر: ٠٣٤٠٤ اقتصاديات استخدام الموارد الأرضية والمائية

مدة الامتحان: **ساعتان**

تاريخ و ميعاد الامتحان: الأحد ٢٠١٦/٦/١٢م (١٠-١٢)

الدرجة الكلية للامتحان: ١٨٠ درجة

العام الجامعي ٢٠١٥/٢٠١٦، الفصل الدراسي الثاني

لجنة الممتحنين: أ.د/ محمد محمد الماحي أ.د/ رفعت عبد الوهاب لقوشة د/ ياسمين صلاح عبد الرازق

الجزء الثاني: (٤٥ درجة)

ضع علامة (√) أو علامة (×) أمام العبارتين التاليتين **مع التعليل:**

١- هناك مخاطر عديدة ترتبط بتسعير المياه وفقاً لعلاقات السوق.

٢- في حال وجود ندرة نسبية من المياه في إحدى الدول، فإن زراعة محاصيل تحتاج إلى كميات كبيرة من المياه للري، هي حالة يمكن وصفها بالمرض الهولندي والذي يقود إلى تداعيات اقتصادية سلبية.

(نهاية أسئلة الجزء الثاني)

مع أطيب التمنيات بالنجاح والتوفيق،،،،،

جامعة الإسكندرية
ALEXANDRIA UNIVERSITY

كلية الزراعة

القسم: **الاقتصاد وادارة الأعمال الزراعية**

المستوى: رابعة محاصيل

اسم و كود المقرر: ٠٣٤٢٠ – اقتصاديات المحاصيل الحقلية

مدة الامتحان: **ساعتين**

تاريخ و ميعاد الامتحان: ٢٠١٦/٦/١٢ من ١٠ – ١٢

الدرجة الكلية للامتحان: ١٨٠ درجة

العام الجامعي ٢٠١٥/٢٠١٦ الفصل الدراسي الثاني

لجنة الممتحنين: ١– أ.د. علي يوسف خليفة ٢– أ.د. عبد اللطيف عطية القاق ٣– د. دعاء حسين إبراهيم

تعليمات الإجابة:

الإجابة على جميع الأسئلة

السؤال الأول: (٦٠ درجة)

(١) قسم الاقتصاديون عناصر الإنتاج إلى الربعة أقسام المعروفة "الأرض والعمل ورأس المال والإدارة" أشرح بإيجاز مفهوم كل من هذه العناصر وخصائصها" (٣٠ درجة)

(٢) تكلم عن أسباب تدهور محصول القطن في مصر مبينا أهمية هذا المحصول الاقتصادية (٣٠ درجة)

السؤال الثاني: (٦٠ درجة)

تكلم بإيجاز عن علاقة تكاليف النقل بكل من:

(١) المواقع المختارة لمنشآت التجهيز أو التصنيع (٢٠ درجة)

(٢) النمط العام لاستغلال الأراضي الزراعية (٢٠ درجة)

(٣) نوعية السلع المعروضة في السواق (٢٠ درجة)

السؤال الثالث: (٦٠ درجة)

(١) اذكر أهم العوامل اللازمة لسد الفجوة الغذائية من المحاصيل البقولية (٢٠ درجة)

(٢) قارن بين كل من المحاصيل الزيتية الآتية من حيث أهميتها النسبية : الفول السوداني، عباد الشمس، فول الصويا، السمسم (٢٠ درجة)

(٣) تكلم بإيجاز عن حجم الفجوة الغذائية من محصول القمح (٢٠ درجة)

(نهاية أسئلة الاختبار)

مع أطيب الأمنيات،،،،

جامعة الإسكندرية
ALEXANDRIA UNIVERSITY

كلية الزراعة

القسم: الاقتصاد وإدارة الأعمال الزراعية

المستوى: الرابع

اسم و كود المقرر:٤١٨ دراسة الجدوى للمشروعات الزراعية

مدة الامتحان: ساعتين

تاريخ و ميعاد الامتحان: ٢٠١٦/٦/٤ من١٠-١٢

الدرجة الكلية للامتحان: ٦٠ درجة

العام الجامعي ٢٠١٥/٢٠١٦ الفصل الدراسي الثانى.

لجنة الممتحنين: ١- ا.د. نشوى التطاوى ٢- ا.د. محمد الماحى ٣- د. محمد على

تعليمات الإجابة : اجب عن جميع الاسئلة التالية:

السؤال الأول: (٢٠ درجة) الجدول التالي يوضح الإيرادات والتكاليف المتوقعة لأحد المشروعات الزراعية

السنة	إجمالي الإيرادات	إجمالي التكاليف	سعر الخصم			
			١٠%	١٥%	٢٠%	٢٥%
١	-	٥٠٠٠	٠.٩٠٩	٠.٨٧٠	٠.٨٣٣	٠.٨٠٠
٢	-	٢٠٠٠	٠.٨٣٦	٠.٧٥٦	٠.٦٩٤	٠.٦٤٠
٣	٥٠٠٠	١٠٠٠	٠.٧٥١	٠.٦٥٨	٠.٥٧٩	٠.٥١٢
٤	٥٠٠٠	١٠٠٠	٠.٦٨٣	٠.٥٧٢	٠.٤٨٢	٠.٤١٠
٥	٥٠٠٠	١٠٠٠	٠.٦٢١	٠.٤٩٧	٠.٤٠٢	٠.٣٢٨

المطلوب: إجراء التحليل المالي لهذا المشروع ، مع ذكر انطباعك عن هذا المشروع إذا علمت أن تكلفة الفرصة البديلة ١٠%.

السؤال الثاني: (٢٠ درجة)

١- عرف كل من : (٥ درجات) (المشروع - العمر الاقتصادى -الاستنفاد - القيمة الحالية - معامل الخصم).

٢- تناول بالشرح كلا من: (١٥ درجة)

أ - شروط الاقراض . (٥ درجات)

ب- طرق حساب إهلاك المبانى والآلات والمعدات. (٥ درجات)

ج- طرق تسديد القروض. (٥ درجات)

الامتحان من صفحتين

أنظر خلفه ←

السؤال الثالث: (٢٠ درجة) أذكر فى نقاط محددة:

١- اسباب إهمال كثير من القائمين على إعداد دراسة الجدوى للمشروعات الجدوى التسويقية للمشروع. (٥ درجات)

٢- الأهداف التسويقية للمشروع. (٥ درجات)

٣- أهمية الدراسة الفنية والتكنواوجية للمشروع. (٥ درجات)

٤- عناصر ومكونات إعداد الدراسة الفنية للمشروع. (٥ درجات)

(نهاية أسئلة الاختبار)

مع أطيب الأمنيات،،،،

Agribusiness
Class: 4th Level
Subject name & code: Feasibility Studies of Agricultural Projects
Exam duration: Two Hours

جامعة الإسكندرية
ALEXANDRIA UNIVERSITY
FACULTY OF AGRICULTURE

Total Points 120
Saturday, June 4th, 2016 from 10:00 to 12:00
Academic Year: 2015/2016 **Academic Semester:** 2nd

Examiner's Committee: ***Kamal Sultan***, Ahmed Abulyazid, and Mohamed Aly

Answer the following questions:

1.A. A firm borrows $100,000, and the loan is to be repaid in five equal payments at the end of each of the next five years. The lender charges at 10% interest rate on the loan balance. Find the PMT per year?

1.B. For the estimates below, calculate the following:

- Breakeven quantity Y.
- Profit (loss) at sales levels that are 10% above and 10% below breakeven, r = $40 per unit; v = 25 per unit; FC = $4,000,000

2. Project X and Y expected net cash flows are as follows:

Year	**Project X**	**Project Y**
0	(10,000)	(10,000)
1	6500	3500
2	3000	3500
3	3000	3500
4	1000	3500

A. Calculate: Project's payback period; Net Present Value (NPV); IRR; and MIRR?
B. Which project could be accepted, if:
- They are independent.
- They are mutually exclusive.

The following data apply to a company X (in millions of dollars):

- Operating costs	2616.2
- Depreciation	100
- Interest plus preferred dividends	92
- Taxes	78.3
- Current assets	1000
- Fixed assets	1000
- Sales	3000
- Debt	104

Find:

a. Profit margin.
b. Total assets turnover.
c. Return on assets.
d. Equity multiplier.
e. Return on equity.

4. Two mutually exclusive alternative public-works projects are currently under consideration. Their respective costs, benefits, and disbenefits, and the useful life are included in the table that follows:

The MARR is 12% and 15%. Which, if any of these projects should be selected?

	Project A	**Project B**
Capital investment	8500	12000
Annual O&M	750	700
Annual benefit	2150	3500
Annual disbenefits	650	800
Useful life of project in years	35	25

(The end of exam)

Best wishes

Alexandria University
Faculty of Agriculture
Department of Economic and Agribusiness
Fourth year

Course name: Agri.Accounting Principles (03415)
Time of exam: 2 hours
Date of exam: Saturday 10/1/2015 (9:11 am)
Degree of exam: 120 degree

Final Exam, First Semester (2014/2015)

Examiners: Prof.dr. Rafek Mohamed Prof.dr. Sherin sherif Prof.dr. Aon Kheralla Aon

1- (A): Define or explain the following concepts: (20 degree)

Accounting, Assets, Balance Sheet, Basic accounting equation, Drawings, Expenses, Liabilities, Transactions.

(B): From the following General Journal's page Make: (40 degree)

The General Ledger, # The Trial balance.

Date	Title	Debit	Credit	No. Account
1/1/2014	*Purchases*	2000		1
	Cash		2000	2
2/1/2014	*Cash*	5000		2
	Sales		5000	3
3/1/2014	*Sales returns*	2000		4
	The Trader		2000	5
5/1/2014	*Cash*	500		2
	Purcheses returns		500	6
15/1/2014	*Wages*	1000		7
	Cash		1000	2
25/1/2014	*Interest*	500		8
	Cash		500	2
29/1/2014	*Rent*	300		9
	Cash		300	2
30/1/2014	*Salaries*	1000		10
	Cash		1000	2
		12300	12300	

2- From the following information make: (60 degree)

Trade account, The Profit and loose account, and The balance sheet.

Beginning Inventory **3000**, Purchases **17000**, Purchases returns **2000**, Purchases transport expenses **3000**, Ending Inventory **8000**, Sales **25000**, Sales returns **5000**, Management expenses **10000**, Loon interest **300**, Salaries **5000**, Insurance expenses **2000**, Bad debts **1000**, Notes receivable revenue **20000**, Capital **90000**, Drawing **5000**, Ground **20000**, Machins **30000**, Building **30000**, Note receivable **2000**, Cash in bank **5000**, Cash **10000**, Notes payable **5000**, Accounts payable **3000**, Interest payable **2000**, Salaries payable **1300**.

With my Best Wishes.....

University of Alexandria
Faculty of Agriculture
Dept. Econ. & Agribusiness

03418
Feasibility study for Agricultural Projects
2 Hours
Date and Time: 20/ 5 /2014 9-11
Degree: 180

Second Semester 2013/2014

Exam. Committee : Prof. Dr. N. El-Tatawy, Prof D. H. Elseify , Prof. Dr. M. El-Mahy

Answer The Following Questions:

First Question: Discuss and explain the following: (90 Degree)

- Break-Even point.
- project evaluation.
- The purpose of project evaluation.
- Costs& Timing
- Social analysis.
- Environmental analysis.

Second Question: (90 degree)

An investor has presented the following data pertaining to an agricultural project to a bank to finance it, assuming that capital opportunity cost is 10%.

Y	Total Revenue	Total Cost	Discount Rate	
			10%	15%
1		5500	0.909	0.870
2		2200	0.826	0.756
3	4500	2200	0.751	0.658
4	4500	2200	0.683	0.572
5	4500	2200	0.621	0.497
6	4500	2200	0.564	0.432
7	4500	2200	0.513	0.376

Based on what you have studied, would you recommended to the bank to carry out this project ?Sat why or why not?

End Exam

جامعة الإسكندرية
كلية الزراعة
قسم الاقتصاد وإدارة الأعمال الزراعية
الفرقة: أولى

اسم وكود المقرر: ٣١٠٢ :
مبادىء الاقتصاد الزراعي
مدة الامتحان: ساعتان
تاريخ وميعاد الامتحان: ٢٠١١/٦/٢٦ من ٩-١١
الدرجة الكلية للامتحان: ١٢٠ درجة

العام الجامعي ٢٠١٠/٢٠١١ الفصل الدراسي الثاني

لجنة الممتحنين: ١- أ.د. عبد اللطيف عطية القاق ٢- أ.د. منيره طه الحاذق ٣- ا.د. نشوى القطاوى

تعليمات الإجابة:

أجب على جميع الأسئلة

السؤال الأول: (٤٠ درجة)

١- "تعتبر الزراعة أقرب الصناعات لأن تكون تنافسية بالمعنى الاقتصادي" اشرح ذلك مبينا
- شروط المنافسة التامة
- أهم مايترتب على هذه الخاصية من نتائج -- وضح إجابتك بالرسوم البيانية كلما أمكن ذلك.

٢- تكلم بإيجاز عن أهم المشاكل التي يعاني منها قطاع الزراعة في مصر، ثم وضح رأيك في التغلب على هذه المشكلات.

السؤال الثاني: (٤٠ درجة)

وضح مع الرسم خمسة نقاط مما يلي:

١- التنمية الاقتصادية -- والتنمية المتواصلة

٢- علم التسويق الزراعي -- السوق

٣- الموارد الأرضية الاقتصادية -- الموارد الأرضية الفيزيقية.

٤- عمالة كاملة -- قوة بشرية -- لاقوة بشرية

٥- الأسواق الكاملة -- الأسواق المنظمة -- الأسواق المفتوحة

٦- النمو السكاني -- دالة النمو السكاني

٧- منحنى عرض العمل الفردي -- منحنى عرض العمل السوقي.

٨- المشكلات.

السؤال الثالث: (٤٠ درجة)

ضع علامة (×) أو (√) أمام العبارات التالية بعد نقل أرقام العبارات في كراسة الإجابة

١- تقوم التجارة الخارجية بين أفراد تضمهم حدود سياسية واحدة ويخضعون لقانون واحد.

٢- يعتبر اختلاف الأسواق في الدول المختلفة من العوامل التي تؤثر تأثيراً واضحاً على طبيعة التبادل الخارجي.

٣- تتنقل عناصر بسهولة نسبية داخل حدود الدولة الواحدة أكثر من انتقالها بين الدول المختلفة.

٤- تقوم التجارة الخارجية بين أفراد دولة واحدة يحكمها نظام اقتصادي واحد.

٥- يرى آدم سميث أن العمل هو المصدر الوحيد للقيمة أي أن قيمة أي سلعة تتوقف على العمل المبذول فيها.

٦- افترض ريكاردو في نظريته أن التجارة الخارجية تتم بين أربع دول على الأقل.

٧- يرى هكشر أن نفقات إنتاج السلع تختلف باختلاف الدول.

٨- وفقاً لنظرية أولين فإنه يوجد تسعة عوامل رئيسية تؤثر في التجارة الخارجية.

٩- يوجد فائض في ميزان المدفوعات عندما تزيد الإيرادات في المدفوعات.

١٠- يوجد عجز في ميزان المدفوعات عندما تزيد المدفوعات على الإيرادات.

(نهاية أسئلة الامتحان)

مع أطيب التمنيات بالنجاح والتوفيق